Чернова Т., 11-а

Школьный этап 10-11 класс.

Задания по номинации «Культура дома и декоративно-прикладное творчество»

Теоретический тур.

1. *Вставьте пропущенные слова в высказывание* Майкла Фелпса *(*американский пловец, Абсолютный рекордсмен по количеству наград (22) в истории Олимпийских игр).

« Мир не стоит на месте, и космические технологии **могут помочь перейти спортивным рекордам на новый, сверхуровень. Мой** костюм **прошел испытания в десятках лабораторий, в его состав входит элемент, который помогает принять идеальное положение в воде. Но плывет и устанавливает рекорды все равно человек».**

2. *Вставьте пропущенное слово в предложение, связанное с текстильным производством.*

При выработке плотных тканей применяют саржевое **переплетение с большим раппортом, образующих крупный рубчик.**



3. *Определите по рисункам виды рукоделия и подпишите их. Напишите откуда пришли и получили широкое распространение в России эти виды техник.*

а) гончарное	б) кружева	в) квиллинг

180 1Т11



Ответ: а) техника: гончарное
исторические корни:
б) техника: кружева
исторические корни
в) техника: квиллинг
исторические корни

4. *Назовите швы, которые используются в пошиве предложенного изделия (рис.1):*

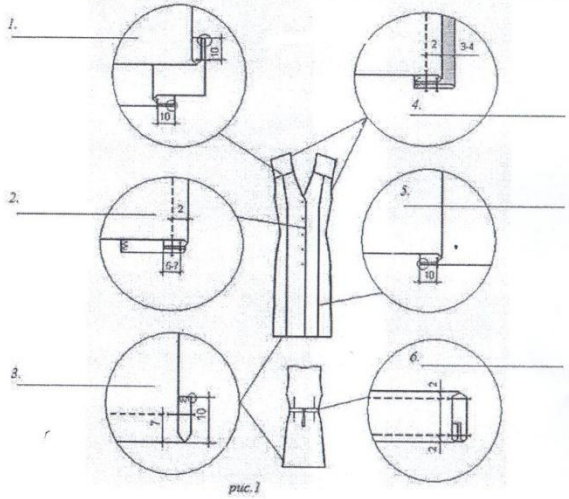

рис.1

5. *Назовите линии соединения деталей, которые изображены на рис.1:*

1._____; 2._____;
3._____; 4_____;
5._____.

6. Установите соответствие между представленными на эскизах силуэтами одежды и временными периодами моды, используя справки: 1936 г.,1895 г.,1912г., 1850г

а - 1850 б- 1912 в- 1888 г- 1895 д- 1936

7.Рассчитайте расход ткани на платье типа «футляр» без рукава до 52 размера (при ширине ткани не меньше140 см), если длина платья – 90см.

Расчет расхода ткани: 90+30=120 см (1м20см)

30см - припуски

8. Для швейного производства используется современное оборудование - пресс (см. рис.) для дублирования деталей кроя и полуфабрикатов. Опишитеданную технологическую операцию в швейном производстве.



Ответ: Берется эскиз детали, подгоняется до нужного размера в нужном материале (ткань) и вклеивается деталь крою. Происходит дублирование деталей.

Отметьте знаком «+» правильный ответ.

9.Потребитель электрической энергии оплачивает:

а) общую мощность используемых электроприборов;
б) напряжение семьи;
в) расход энергии за определённое время;
г) расход энергии за каждого члена семьи.

10 Творческое задание. Вам предложены детали кроя платья и образцы ткани.

1. Подпишите детали и линии (1,2,3,4);
2. Выполните эскиз платья, согласно деталям кроя;
3. Выберите рекомендуемый образец ткани (из предложенных образцов 6х6 см) для своей модели, наклейте и подпишите название ткани или ее состав.

1Т11

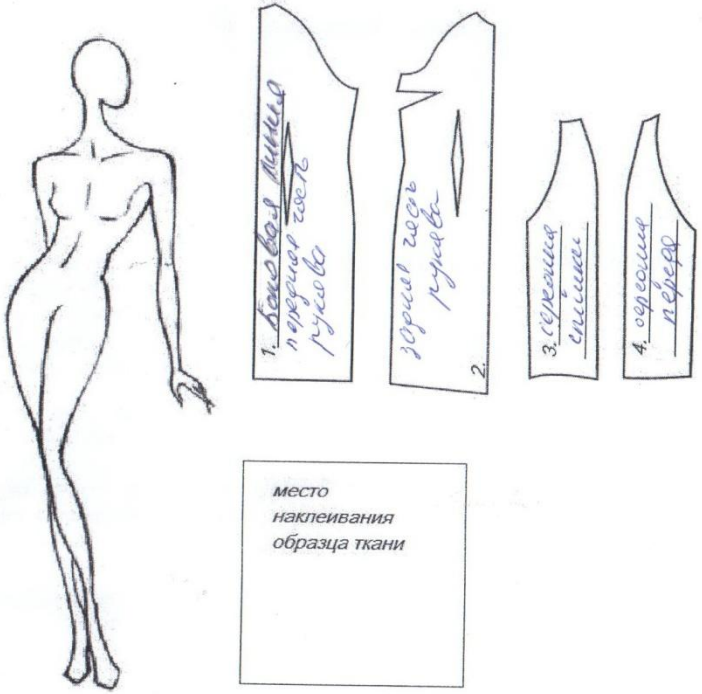

ткань: трикотаж, сатин, хлопок

Общее кол-во баллов - 18 (восемнадцать)

Председатель жюри /Ремитько Е.М

Члены жюри: Добкина Н.А.

/Алексеев А.Б.

Литвинская А., 10-А

188

Школьный этап 10-11 класс.

Задания по номинации «Культура дома и декоративно-прикладное творчество»

Теоретический тур.

1. *Вставьте пропущенные слова в высказывание* Майкла Фелпса (американский пловец, Абсолютный рекордсмен по количеству наград (22) в истории Олимпийских игр).

« Мир не стоит на месте, и космические технологии **могут помочь перейти спортивным рекордам на новый, сверхуровень. Мой** костюм **прошел испытания в десятках лабораторий, в его состав входит элемент, который помогает принять идеальное положение в воде. Но плывет и устанавливает рекорды все равно человек».**

2. *Вставьте пропущенное слово в предложение, связанное с текстильным производством.*

При выработке плотных тканей применяют саржевое **переплетение с большим раппортом, образующих крупный рубчик.**



3. *Определите по рисункам виды рукоделия и подпишите их. Напишите откуда пришли и получили широкое распространение в России эти виды техник.*

а) гуаньтель	б) кусудама	в) квиллинг

1Т10



Ответ: а) техника: гуаньтель
исторические корни:
б) техника: кусудама
исторические корни
в) техника: квиллинг
исторические корни

4. *Назовите швы, которые используются в пошиве предложенного изделия (рис.1):*

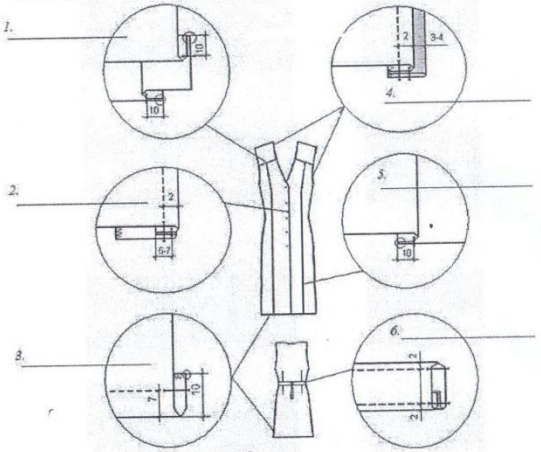

рис.1

5. *Назовите линии соединения деталей, которые изображены на рис.1:*

1._____; 2._____;
3._____; 4_____;
5._____.

6. Установите соответствие между представленными на эскизах силуэтами одежды и временными периодами моды, используя справки: 1936 г.,1895 г.,1912г., 1850г



а - 1850 б- 1912 в- 1895 г- 1895 д- 1936

7.Рассчитайте расход ткани на платье типа «футляр» без рукава до 52 размера (при ширине ткани не меньше140 см), если длина платья – 90см.

Расчет расхода ткани: 120 см

S = a·h

90×2 = 180 1,8м

90+30 = 120см

1,6м шерсть, хлопок

8. Для швейного производства используется современное оборудование - пресс (см. рис.) для дублирования деталей кроя и полуфабрикатов. Опишитеданную технологическую операцию в швейном производстве.



Ответ: Эту технологическую операцию в сфере производства можно описать как технологию дублирование деталей

Отметьте знаком «+» правильный ответ.

9.Потребитель электрической энергии оплачивает:

а) общую мощность используемых электроприборов;
б) напряжение семьи;
в) расход энергии за определённое время;
г) расход энергии за каждого члена семьи.

10 Творческое задание. Вам предложены детали кроя платья и образцы ткани.

1. Подпишите детали и линии (1,2,3,4);
2. Выполните эскиз платья, согласно деталям кроя;
3. Выберите рекомендуемый образец ткани (из предложенных образцов 6х6 см) для своей модели, наклейте и подпишите название ткани или ее состав.

1Т10

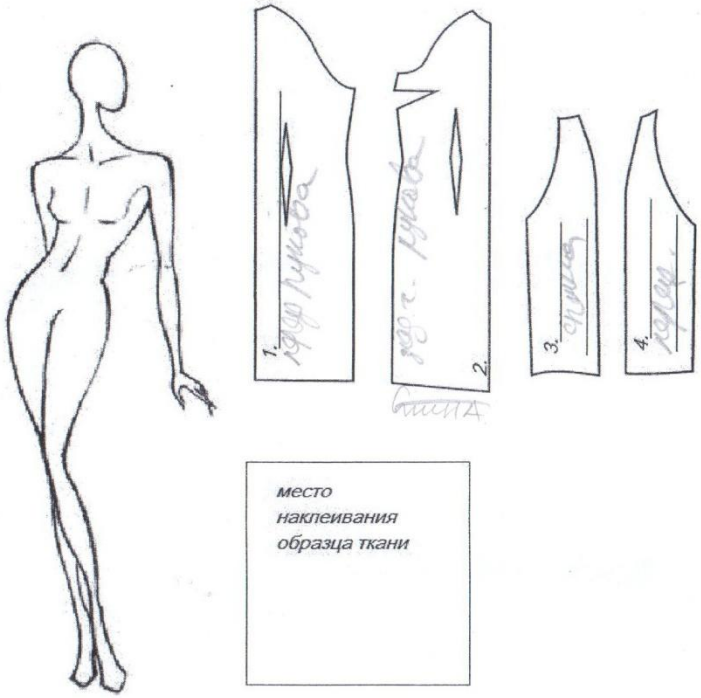

трикотаж

Общее кол-во баллов – 18 (восемнадцать)

Председатель жюри: / Решитько Е.М.

Члены жюри: / Добкина Н.А.

/ Алексеев И.Б.

Иванова В., 10-а

Школьный этап 10-11 класс.

Задания по номинации «Культура дома и декоративно-прикладное творчество»

Теоретический тур.

1. *Вставьте пропущенные слова в высказывание* Майкла Фелпса (американский пловец, Абсолютный рекордсмен по количеству наград (22) в истории Олимпийских игр).

« Мир не стоит на месте, и космические рекорды **могут помочь перейти спортивным рекордам на новый, сверхуровень. Мой** анализ крови **прошел испытания в десятках лабораторий, в его состав входит элемент, который помогает принять идеальное положение в воде. Но плывет и устанавливает рекорды все равно человек».**

2. *Вставьте пропущенное слово в предложение, связанное с текстильным производством.*

При выработке плотных тканей применяют ~~плотнышое~~ плотнянное **переплетение с большим раппортом, образующих крупный рубчик.**



3. *Определите по рисункам виды рукоделия и подпишите их. Напишите откуда пришли и получили широкое распространение в России эти виды техник.*

а)	б)	в)

68 3Т10



Ответ: а) техника: производственная.
исторические корни:
б) техника: ручная
исторические корни
в) техника: рисунок
исторические корни

4. *Назовите швы, которые используются в пошиве предложенного изделия (рис.1):*

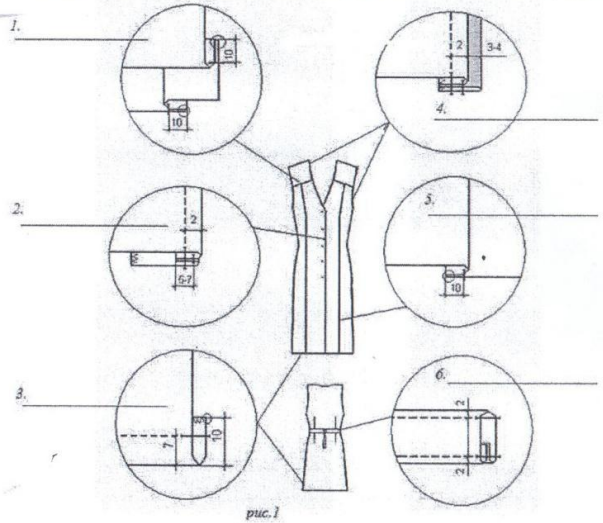

рис.1

5. *Назовите линии соединения деталей, которые изображены на рис.1:*

1._____; 2._____;
3._____; 4_____;
5._____.

6. Установите соответствие между представленными на эскизах силуэтами одежды и временными периодами моды, используя справки: 1936 г.,1895 г.,1912г., 1850г

а - 1936 б- 1912 в- 1895. г- 1912 д- 1850

7.Рассчитайте расход ткани на платье типа «футляр» без рукава до 52 размера (при ширине ткани не меньше140 см), если длина платья – 90см.

Расчет расхода ткани: 140-90=50см остаток ткани на припуск 30 см
90+30=120см = 1м 20см

8. Для швейного производства используется современное оборудование - пресс (см. рис.) для дублирования деталей кроя и полуфабрикатов. Опишитеданную технологическую операцию в швейном производстве.



Ответ: дублирование деталей

Отметьте знаком «+» правильный ответ.

9.Потребитель электрической энергии оплачивает:

+а) общую мощность используемых электроприборов;
б) напряжение семьи;
в) расход энергии за определённое время;
г) расход энергии за каждого члена семьи.

10 Творческое задание. Вам предложены детали кроя платья и образцы ткани.

1. Подпишите детали и линии (1,2,3,4);
2. Выполните эскиз платья, согласно деталям кроя;
3. Выберите рекомендуемый образец ткани (из предложенных образцов 6х6 см) для своей модели, наклейте и подпишите название ткани или ее состав.

3Т10

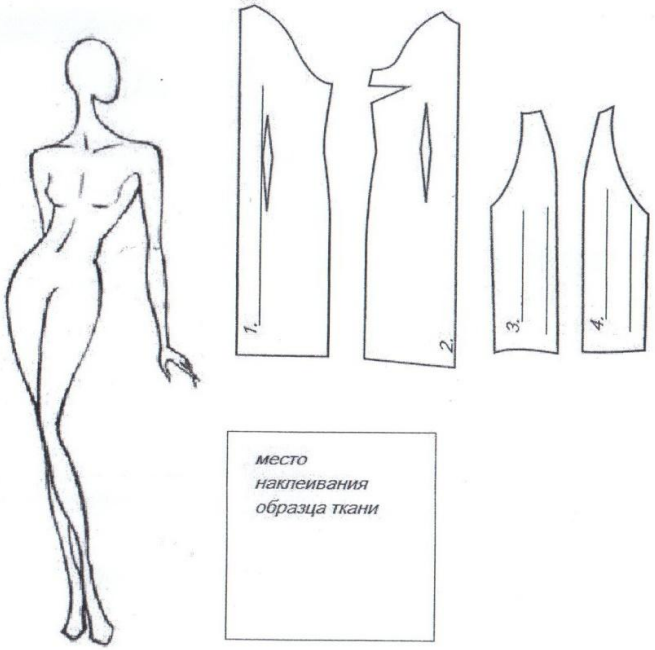

Общее кол-во баллов 6 (шесть)

Председатель жюри: /Решитько Е.М.

Члены жюри: /Дробышев Н.А.

/Алексеев И.Б.

Дюбкина М., 7-а

Задания для проведения школьного этапа всероссийской олимпиады школьников по технологии («Культура дома») для 7 класса

Кулинария

1. Каши можно варить:
а) на молоке;
б) на воде;
в) на бульоне;
г) на киселе;
д) на компоте.



2. Определите, какое яйцо самое свежее
а б в

3. Сопоставь:

1Пшеница	а Пшено
2Овес	б Ядрица
3Ячмень	в Манка
4Гречиха	г Овсяная
5Просо	д Рис дробленый
6Рис	е Перловая

1	2	3	4	5	6
а	г	б	в	е	д

4. Салатными заправками являются:
а) майонез
б) сметана
в) уксус
г) растительное масло

5. При приготовлении блюд из яиц их разбивают:
а) в посуду, в которой готовят, сразу
б) в отдельную посуду
в) это не имеет значения

Материаловедение

6. Волокна растительного и животного происхождения относятся к волокнам:
а) искусственным;
б) синтетическим;
в) натуральным.

7. Заполните схему классификации текстильных волокон

17 7

8. Наиболее подходящими для изготовления летнего платья являются ткани:
а) шерстяная;
б) льняная;
в) хлопчатобумажная;
г) синтетическая;
д) искусственная.

9+15=24

9. Какое понятие является общим для следующих предметов на картинках?

А) отделка Б) аппликация В) фурнитура Г) безделушки

10. Как называется неосыпающийся край ткани?
а) кромка
б) шов
в) срез

11. Долевая нить при растяжении:
а) растягивается
б) не изменяет свою длину
в) скручивается

12. Процесс получения ткани из ниток путем их переплетения называется:
а) прядением
б) ткачеством
в) отделкой

Конструирование и моделирование

13. Юбки по конструкции бывают:
а) прямые;
б) клиньевые;
в) диагональные;
г) конические;
д) расширенные;
е) зауженные.

14. Размер женских юбок и брюк определяется:
а) по обхвату шеи;
б) по обхвату груди;
в) по обхвату бедер;
г) по обхвату талии;
д) по росту.

15. К поясным изделиям относят:
а)платье, юбка, шорты
б)пальто, платье, брюки
в)юбка, шорты, брюки

16.Для построения чертежа юбки необходимы следующие мерки:
а)Ст б)Друк в)Сг
г)Сб д)Ди е)Дтс

17. Снятие мерки "Полуобхват талии" выполняется:
а) по самому узкому месту туловища
б) от линии талии до желаемой длины
в) горизонтально, вокруг туловища по линии бедер

18. Моделирование – это:
а) выполнение расчета и построение чертежа
б) создание различных фасонов
в) снятие мерок

Машинные швы

19. При изготовлении фартука применяются машинные швы:
а) стачной;
б) обтачной;
в) вподгибку с закрытым срезом;
г) двойной;
д) накладной.

20. Разутюжить - это:
а) удалить замины на тканях и деталях изделия;
б) отогнуть припуски шва на одну сторону и закрепить их в этом положении;
в) уменьшить толщину шва, сгиба или края детали;
г) разложить припуски шва на две стороны и закрепить их в этом положении.

21. Дайте название шва на рисунке
а) Вподгибку с открытым срезом
б) Вподгибку с закрытым срезом
в) Обтачной

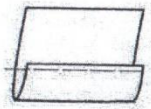

Раскрой

22. Перевод выкройки на ткань осуществляется при помощи:
а) сметочных стежков;
б) резца;
в) копировальных стежков;
г) портновского мела;
д) косых стежков.

23. Направление долевой нити учитывают:
а) для наиболее экономного раскроя ткани;
б) чтобы избежать вытягивания изделия в процессе носки;
в) чтобы изделие меньше сминалось.

Технология изготовления поясного изделия

24. Укажите цифрами в левом столбце правильную последовательность технологии изготовления швейного изделия:

2	А. Построение выкройки
4	Б. Влажно-тепловая обработка
1	В. Снятие мерок
3	Г. Раскрой изделия
5	Д. Пошив изделия

15

25. Практическая работа (по 3 балла за каждую модель, всего - 9): на основе прямой юбки разработай не менее трех новых моделей. Нарисуй их.



9

Таблица с баллами за каждое задание с указанием максимально итоговой суммы:

№ задания	1	2	3	4	5	6	7	8	9	10	11	12	13	14	15	16	17	18	19	20	21	22	23	24	25	Итого
Максимальный балл	1	1	1	1	1	1	1	1	1	1	1	1	1	1	1	1	1	1	1	1	1	1	1	1	9	33
Балл за выполнение	1	1	0	1	1	1	0	1	0	1	1	1	0	0	1	0	1	1	1	0	1	0	1	0	9	24
Подпись проверяющего																										

Общее кол-во баллов - 24 (двадцать четыре)
Председатель жюри: /Ашитко Е.М.
Члены жюри: /Дюбкина Н.А
/Алексеев А.В.

Михеева А., 7-а

3 Т 7

Задания для проведения школьного этапа всероссийской олимпиады школьников по технологии («Культура дома») для 7 класса

Кулинария

1. Каши можно варить:
а) на молоке;
б) на воде;
в) на бульоне;
г) на киселе;
д) на компоте.

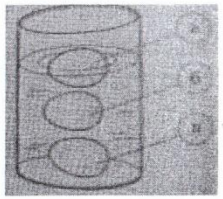

2. Определите, какое яйцо самое свежее
а б в

3. Сопоставь:

1Пшеница	а Пшено
2Овес	б Ядрица
3Ячмень	в Манка
4Гречиха	г Овсяная
5Просо	д Рис дробленый
6Рис	е Перловая

1	2	3	4	5	6
а	г	б	в	е	д

4. Салатными заправками являются:
а) майонез
б) сметана
в) уксус
г) растительное масло

5. При приготовлении блюд из яиц их разбивают:
а) в посуду, в которой готовят, сразу
б) в отдельную посуду
в) это не имеет значения

Материаловедение

6. Волокна растительного и животного происхождения относятся к волокнам:
а) искусственным;
б) синтетическим;
в) натуральным.

7. Заполните схему классификации текстильных волокон

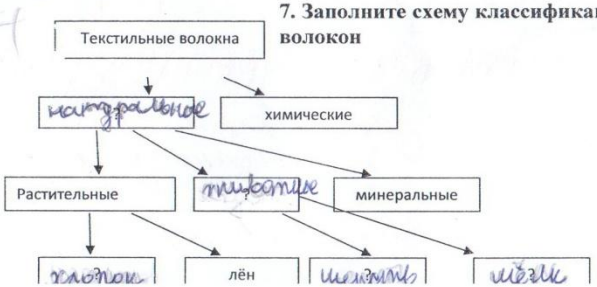

8. Наиболее подходящими для изготовления летнего платья являются ткани:
а) шерстяная;
б) льняная;
в) хлопчатобумажная;
г) синтетическая;
д) искусственная.

14 9 = 23 5

9. Какое понятие является общим для следующих предметов на картинках?

А) отделка Б) аппликация В) фурнитура Г) безделушки

10. Как называется неосыпающийся край ткани?
а) кромка
б) шов
в) срез

11. Долевая нить при растяжении:
а) растягивается
б) не изменяет свою длину
в) скручивается

12. Процесс получения ткани из ниток путем их переплетения называется:
а) прядением
б) ткачеством
в) отделкой

Конструирование и моделирование

13. Юбки по конструкции бывают:
а) прямые;
б) клиньевые;
в) диагональные;
г) конические;
д) расширенные;
е) зауженные.

14. Размер женских юбок и брюк определяется:
а) по обхвату шеи;
б) по обхвату груди;
в) по обхвату бедер;
г) по обхвату талии;
д) по росту.

15. К поясным изделиям относят:
а)платье, юбка, шорты
б)пальто, платье, брюки
в)юбка, шорты, брюки

16.Для построения чертежа юбки необходимы следующие мерки:
а)Ст б)Друк в)Сг
г)Сб д)Ди е)Дтс

17. Снятие мерки "Полуобхват талии" выполняется:
а) по самому узкому месту туловища
б) от линии талии до желаемой длины
в) горизонтально, вокруг туловища по линии бедер

18. Моделирование – это:
а) выполнение расчета и построение чертежа
б) создание различных фасонов
в) снятие мерок

Машинные швы

19. При изготовлении фартука применяются машинные швы:
а) стачной;
б) обтачной;
в) вподгибку с закрытым срезом;
г) двойной;
д) накладной.

20. Разутюжить - это:
а) удалить замины на тканях и деталях изделия;
б) отогнуть припуски шва на одну сторону и закрепить их в этом положении;
в) уменьшить толщину шва, сгиба или края детали;
г) разложить припуски шва на две стороны и закрепить их в этом положении.

21. Дайте название шва на рисунке

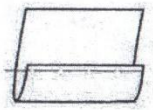

а) Вподгибку с открытым срезом
б) Вподгибку с закрытым срезом
в) Обтачной

Раскрой

22. Перевод выкройки на ткань осуществляется при помощи:
а) сметочных стежков;
б) резца;
в) копировальных стежков;
г) портновского мела;
д) косых стежков.

23. Направление долевой нити учитывают:
а) для наиболее экономного раскроя ткани;
б) чтобы избежать вытягивания изделия в процессе носки;
в) чтобы изделие меньше сминалось.

Технология изготовления поясного изделия

24. Укажите цифрами в левом столбце правильную последовательность технологии изготовления швейного изделия:

2	А. Построение выкройки
4	Б. Влажно-тепловая обработка
1	В. Снятие мерок
3	Г. Раскрой изделия
5	Д. Пошив изделия

14

25. Практическая работа (по 3 балла за каждую модель, всего - 9): на основе прямой юбки разработай не менее трех новых моделей. Нарисуй их.

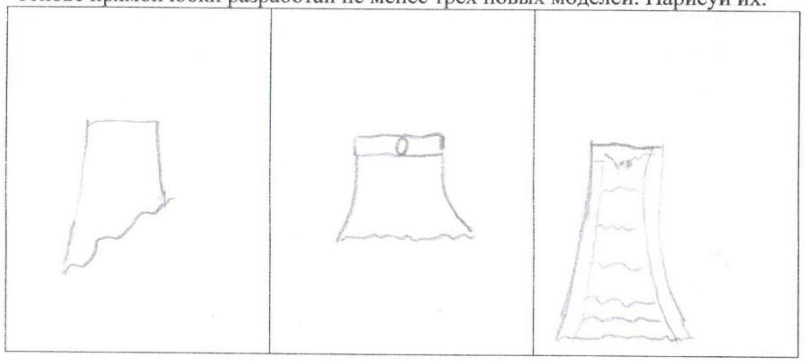

Таблица с баллами за каждое задание с указанием максимально итоговой суммы:

№ задания	1	2	3	4	5	6	7	8	9	10	11	12	13	14	15	16	17	18	19	20	21	22	23	24	25	Итого
Максимальный балл	1	1	1	1	1	1	1	1	1	1	1	1	1	1	1	1	1	1	1	1	1	1	1	1	9	33
Балл за выполнение	1	1	0	1	1	1	1	0	1	1	1	0	0	1	0	0	1	0	0	1	0	1	0	9		23
Подпись проверяющего																										

Общее кол-во баллов - 23 (двадцать три)
Председатель жюри: /Решитко Е.М.
Члены жюри: /Добкина Н.А.
/Алексеев А.Ф.

Сергеева А. 7-а

Задания для проведения школьного этапа всероссийской олимпиады школьников по технологии («Культура дома») для 7 класса

Кулинария

1. Каши можно варить:

а) на молоке;
б) на воде;
в) на бульоне;
г) на киселе;
д) на компоте.



2. Определите, какое яйцо самое свежее

а б в

3. Сопоставь:

1Пшеница	а Пшено
2Овес	б Ядрица
3Ячмень	в Манка
4Гречиха	г Овсяная
5Просо	д Рис дробленый
6Рис	е Перловая

1	2	3	4	5	6
а	г	в	б	е	д

4. Салатными заправками являются:

а) майонез
б) сметана
в) уксус
г) растительное масло

5. При приготовлении блюд из яиц их разбивают:

а) в посуду, в которой готовят, сразу
б) в отдельную посуду
в) это не имеет значения

Материаловедение

6. Волокна растительного и животного происхождения относятся к волокнам:

а) искусственным;
б) синтетическим;
в) натуральным.

7. Заполните схему классификации текстильных волокон

4Т7

8. Наиболее подходящими для изготовления летнего платья являются ткани:

а) шерстяная;
б) льняная;
в) хлопчатобумажная;
г) синтетическая;
д) искусственная.

11+9=205

9. Какое понятие является общим для следующих предметов на картинках?

А) отделка Б) аппликация В) фурнитура Г) безделушки

10. Как называется неосыпающийся край ткани?

а) кромка
б) шов
в) срез

11. Долевая нить при растяжении:

а) растягивается
б) не изменяет свою длину
в) скручивается

12. Процесс получения ткани из ниток путем их переплетения называется:

а) прядением
б) ткачеством
в) отделкой

Конструирование и моделирование

13. Юбки по конструкции бывают:

а) прямые;
б) клиньевые;
в) диагональные;
г) конические;
д) расширенные;
е) зауженные.

14. Размер женских юбок и брюк определяется:

а) по обхвату шеи;
б) по обхвату груди;
в) по обхвату бедер;
г) по обхвату талии;

15. К поясным изделиям относят:
а)платье, юбка, шорты
б)пальто, платье, брюки
в)юбка, шорты, брюки

16.Для построения чертежа юбки необходимы следующие мерки:
а)Ст б)Друк в)Сг
г)Сб д)Ди е)Дтс

17. Снятие мерки "Полуобхват талии" выполняется:
а) по самому узкому месту туловища
б) от линии талии до желаемой длины
в) горизонтально, вокруг туловища по линии бедер

18. Моделирование – это:
а) выполнение расчета и построение чертежа
б) создание различных фасонов
в) снятие мерок

Машинные швы

19. При изготовлении фартука применяются машинные швы:
а) стачной;
б) обтачной;
в) вподгибку с закрытым срезом;
г) двойной;
д) накладной.

20. Разутюжить - это:
а) удалить замины на тканях и деталях изделия;
б) отогнуть припуски шва на одну сторону и закрепить их в этом положении;
в) уменьшить толщину шва, сгиба или края детали;
г) разложить припуски шва на две стороны и закрепить их в этом положении.

21. Дайте название шва на рисунке

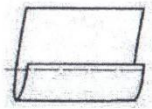

а) Вподгибку с открытым срезом
б) Вподгибку с закрытым срезом
в) Обтачной

Раскрой

22. Перевод выкройки на ткань осуществляется при помощи:
а) сметочных стежков;
б) резца;
в) копировальных стежков;
г) портновского мела;
д) косых стежков.

23. Направление долевой нити учитывают:
а) для наиболее экономного раскроя ткани;
б) чтобы избежать вытягивания изделия в процессе носки;
в) чтобы изделие меньше сминалось.

Технология изготовления поясного изделия

24. Укажите цифрами в левом столбце правильную последовательность технологии изготовления швейного изделия:

2	А. Построение выкройки 2
4	Б. Влажно-тепловая обработка 4
1	В. Снятие мерок 1
3	Г. Раскрой изделия 3
5	Д. Пошив изделия 5

25. Практическая работа (по 3 балла за каждую модель, всего - 9): на основе прямой юбки разработай не менее трех новых моделей. Нарисуй их.



Таблица с баллами за каждое задание с указанием максимально итоговой суммы:

№ задания	1	2	3	4	5	6	7	8	9	10	11	12	13	14	15	16	17	18	19	20	21	22	23	24	25	Итого
Максимальный балл	1	1	1	1	1	1	1	1	1	1	1	1	1	1	1	1	1	1	1	1	1	1	1	1	9	33
Балл за выполнение	1	1	0	1	1	0	0	0	0	1	0	0	0	0	1	1	1	0	1	0	1	0	1	0	9	20
Подпись проверяющего																										

Общее кол-во баллов 20 (двадцать)
Председатель жюри: /Решитько Е.М.
Члены жюри: /Дубкина Н.А.
/Алексеев А.Б.

Липатникова С., 6-а

1Т6

Олимпиадные задания по технологии для 6 класса

Тестовые задания.

КУЛИНАРИЯ

1. Определите, в каком стакане находится недоброкачественное яйцо. Обведите правильный ответ. Количество баллов - 1

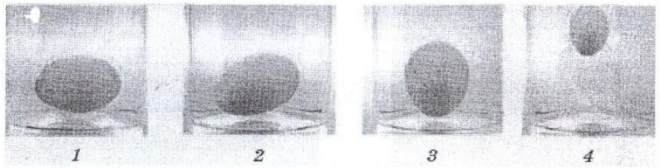

А, 1 Б) 2 В) 3 Г) 4

2. Салатными заправками являются: Количество баллов - 1

а) майонез
б) сметана
в) уксус
г) растительное масло

3. Зёрна каких растений используют для изготовления манной крупы? Количество баллов - 1

А. овес Б. рис В. пшеница Г. гречиха

4.Укажите цифрами последовательность первичной обработки овощей. Количество баллов - 1

а) очистка
б) мойка
в) нарезка
г) промывание
д) сортировка

1-А; 2-Б; 3-Д; 4-Г; 5-В.

МАТЕРИАЛОВЕДЕНИЕ

5. С чего начинают изготовление любого изделия? Количество баллов - 1

А) с раскроя
Б) с первой примерки
В) с моделирования
Г) с чашечки ароматного кофе

6. Как правильно снимают мерки? Количество баллов - 1

А) по обеим сторонам
Б) по левой стороне фигуры
В) по правой стороне фигуры
Г) «на глаз»

7. Натуральные шёлковые нити получают. Количество баллов - 1 :

а) из растений
б) с животного
в) с кокона гусеницы тутового шелкопряда
г) на фабрике искусственным путём

8. Что можно изменить с помощью моделирования. Количество баллов - 1 :

а) размер изделия
б) фасон изделия
в) цвет изделия
г) эскиз изделия

9. Укажите название ткани, снятой с ткацкого станка. Количество баллов - 1

А) отбеленная Б) суровая В) необработанная Г) гладкокрашеная

10. Нитки, применяемые при вышивании называются.... Количество баллов - 1

а) капрон
б) мулине
в) шейлон
г) шёлк

11. При изготовлении тканей применяются переплетения. Количество баллов - 1 :

а) шелковое
б) саржевое
в) хлопчатобумажное
г) шерстяное

12. Что такое набивная ткань? Количество баллов - 1

а) набили скалками
б) разрисовали кисточками

в напечатали рисунок краской

13. Разгадайте ребус. Ответ впишите в клетки. Количество баллов - 1



Ш В Ы

14. Разгадайте ребус. Ответ впишите в клетки. Количество баллов - 1

У З О Р

Творческие задания. Количество баллов - 2

1. Подпишите детали фартука

2. Разработать и нарисовать 4 модели фартука. Количество баллов - 4

Таблица с баллами за каждое задание с указанием максимально итоговой суммы:

№ задания	1	2	3	4	5	6	7	8	9	10	11	12	13	14	1	2	Всего
Максимальный балл	1	1	1	1	1	1	1	1	1	1	1	1	1	1	2	4	20
Балл за выполнение	1	1	1	1	0	1	1	1	1	0	1	1	1	1	2	4	18
Подпись проверяющего																	

Общее кол-во баллов - 18 (восемнадцать)

Председатель жюри: /Решетко Е.М.

Члены жюри: /Костина Н.А.

/Алексеев А.Б.

16

Яковлева А., 6-а

2Т6

Олимпиадные задания по технологии для 6 класса

Тестовые задания.

КУЛИНАРИЯ

1. Определите, в каком стакане находится недоброкачественное яйцо. Обведите правильный ответ. Количество баллов - 1

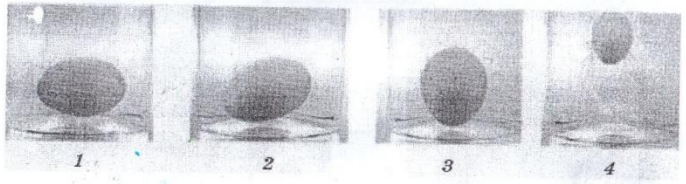

А) 1 Б) 2 В) 3 Г) 4

2. Салатными заправками являются: Количество баллов - 1

а) майонез
б) сметана
в) уксус
г) растительное масло

3. Зёрна каких растений используют для изготовления манной крупы? Количество баллов - 1

А) овес Б) рис В) пшеница Г. гречиха

4.Укажите цифрами последовательность первичной обработки овощей. Количество баллов - 1

а) очистка
б) мойка
в) нарезка
г) промывание
д) сортировка

1-б; 2-а; 3-г; 4-д; 5-в.

МАТЕРИАЛОВЕДЕНИЕ

5. С чего начинают изготовление любого изделия? Количество баллов - 1

А) с раскроя
Б) с первой примерки
В) с моделирования
Г) с чашечки ароматного кофе

6. Как правильно снимают мерки? Количество баллов - 1

А) по обеим сторонам
Б) по левой стороне фигуры
В) по правой стороне фигуры
Г) «на глаз»

7. Натуральные шёлковые нити получают. Количество баллов - 1 :

а) из растений
б) с животного
в) с кокона гусеницы тутового шелкопряда
г) на фабрике искусственным путём

8. Что можно изменить с помощью моделирования. Количество баллов - 1 :

а) размер изделия
б) фасон изделия
в) цвет изделия
г) эскиз изделия

9. Укажите название ткани, снятой с ткацкого станка. Количество баллов - 1



А) отбеленная Б) суровая В) необработанная Г) гладкокрашеная

10. Нитки, применяемые при вышивании называются.... Количество баллов - 1

а) капрон
б) мулине
в) нейлон
г) шёлк

11. При изготовлении тканей применяются переплетения. Количество баллов - 1 :

а) шелковое
б) саржевое
в) хлопчатобумажное
г) шерстяное

12. Что такое набивная ткань? Количество баллов - 1

а) набили скалками
б) разрисовали кисточками

в) напечатали рисунок краской

13. Разгадайте ребус. Ответ впишите в клетки. Количество баллов - 1



ш	в	ы

14. Разгадайте ребус. Ответ впишите в клетки. Количество баллов - 1

у	з	о	р

Творческие задания. Количество баллов - 2

1. Подпишите детали фартука

2. Разработать и нарисовать 4 модели фартука. Количество баллов - 4

Таблица с баллами за каждое задание с указанием максимально итоговой суммы:

№ задания	1	2	3	4	5	6	7	8	9	10	11	12	13	14	1	2	Всего
Максимальный балл	1	1	1	1	1	1	1	1	1	1	1	1	1	1	2	4	20
Балл за выполнение	1	1	1	0	1	1	1	0	0	1	0	1	1	1	0	4	14
Подпись проверяющего																	

Общее кол-во баллов 14 (четырнадцать)
Председатель жюри: /Решетко Е.М.
Члены жюри: /Добшина И.А.
/Алексеев А.Б.



-Ю-

Осадчая Ю, 6-а

Олимпиадные задания по технологии для 6 класса

Тестовые задания.

КУЛИНАРИЯ

1. Определите, в каком стакане находится недоброкачественное яйцо. Обведите правильный ответ. Количество баллов - 1

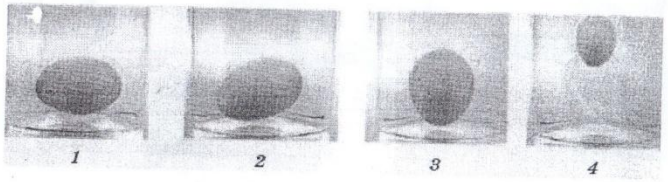

А, 1 Б) 2 В) 3 Г) 4

2. Салатными заправками являются: Количество баллов - 1

а) майонез
б) сметана
в) уксус
г) растительное масло

3. Зёрна каких растений используют для изготовления манной крупы? Количество баллов - 1



А. овес Б. рис В. пшеница Г. гречиха

4.Укажите цифрами последовательность первичной обработки овощей. Количество баллов - 1

а) очистка
б) мойка
в) нарезка
г) промывание
д) сортировка

1-д; 2-б; 3-г; 4-а; 5-в.

МАТЕРИАЛОВЕДЕНИЕ

5. С чего начинают изготовление любого изделия? Количество баллов - 1

3Т6

А) с раскроя
Б) с первой примерки
В) с моделирования
Г) с чашечки ароматного кофе

6. Как правильно снимают мерки? Количество баллов - 1

А) по обеим сторонам
Б) по левой стороне фигуры
В) по правой стороне фигуры
Г) «на глаз»

7. Натуральные шёлковые нити получают. Количество баллов - 1 :

а) из растений
б) с животного
в) с кокона гусеницы тутового шелкопряда
г) на фабрике искусственным путём

8. Что можно изменить с помощью моделирования. Количество баллов - 1 :

а) размер изделия
б) фасон изделия
в) цвет изделия
г) эскиз изделия

9. Укажите название ткани, снятой с ткацкого станка. Количество баллов - 1



А) отбеленная Б) суровая В) необработанная Г) гладкокрашеная

10. Нитки, применяемые при вышивании называются.... Количество баллов - 1

а) капрон
б) мулине
в) нейлон
г) шёлк

11. При изготовлении тканей применяются переплетения. Количество баллов - 1 :

а) шелковое
б) саржевое
в) хлопчатобумажное
г) шерстяное

12. Что такое набивная ткань? Количество баллов - 1

а) набили скалками
б) разрисовали кисточками

в) напечатали рисунок краской

13. **Разгадайте ребус. Ответ впишите в клетки. Количество баллов - 1**



Р | И | С

14. Разгадайте ребус. Ответ впишите в клетки. Количество баллов - 1



Творческие задания. Количество баллов - 2

1. Подпишите детали фартука

2. Разработать и нарисовать 4 модели фартука. Количество баллов - 4

Таблица с баллами за каждое задание с указанием максимально итоговой суммы:

№ задания	1	2	3	4	5	6	7	8	9	10	11	12	13	14	1	2	Всего
Максимальный балл	1	1	1	1	1	1	1	1	1	1	1	1	1	1	2	4	20
Балл за выполнение	1	1	0	0	1	1	1	0	0	1	0	0	0	1	0	4	11
Подпись проверяющего																	

Общее кол-во баллов 11 (одиннадцать)

Председатель жюри: /Решетко Е.М.

Члены жюри /Добкина Н.А.

/Алексеев А.П.