Г0803

8 класс

Теоретический тур

Время выполнения – 20 минут. За каждое задание – 1 балл. Максимум за теоретический тур – 16 баллов. За аналитический тур – 38 баллов. Всего – 54 балла.

1. Южный полярный круг впервые был пересечен экспедицией под руководством:

1б

А. Фаддея Беллинсгаузена
Б. Джеймса Кука
В. Абеля Тасмана
Г. Рональда Амундсена

2. Какой из перечисленных материков имеет наибольшую среднюю высоту дневной поверхности над уровнем моря?

0

А. Антарктида
Б. Южная Америка
В. Евразия
Г. Северная Америка

3. Кто из перечисленных путешественников исследовал наиболее северные районы страны?

0

А. Н.М. Пржевальский
Б. Ермак
В. И.Д. Черский
Г. И. Москвитин

4. Над какой территорией, в среднем, атмосферное давление зимой выше?

1б

А. Восточная Сибирь
Б. Исландия
В. Индо-Гангская низменность
Г. Командорские острова

5. Карелию часто называют «страной тысячи озер». Какая еще территория может претендовать на подобный «титул»?

1б

А. Колымская низменность
Б. Среднерусская возвышенность
В. Общий Сырт
Г. Прикаспийская низменность

6. Выберите правильное соответствие «природная зона - почвы»:

0

А. Смешанные леса - подзолистые
Б. Субтропические леса - красно-бурые почвы
В. Широколиственные леса – дерново-подзолистые
Г. Степь - черноземы

7. В каком штате США стрелка компаса показывает не на север, а на восток?

0

А. Гавайи
Б. Аляска
В. Калифорния
Г. Вайоминг

8. Наибольшая часть населения Земли проживает:

1б

А. На прибрежных низменностях
Б. В предгорных регионах
В. На высотах 1000-2000 м
Г. Во внутриконтинентальных региона

9. Какая часть России может подвергаться разрушительному воздействию тропических ураганов?

1б

А. Черноморское побережье
Б. Приморский край
В. Калмыкия
Г. Южная Сибирь

10.Ближе всего к высочайшей вершине какого материка 22 июня в полдень по Гринвичу Солнце находится в зените?

0

А. Евразия
Б. Африка
В. Южная Америка
Г. Австралия

11. Какое из этих морей расположено преимущественно на земной коре океанического типа?

1б

А. Саргассово
Б. Белое
В. Чукотское
Г. Балтийское

12. Какая из этих форм рельефа не создана деятельностью ледника?

1б

А. Бараньи лбы
Б. Терриконы
В. Камы
Г. Морены

13. Основные запасы нефти в России приурочены к…:

0

А. Мезозойскому осадочному чехлу
Б. Краевому предгорному прогибу, сформировавшемуся в Кайнозое
В. Зонам байкальской складчатости
Г. Выходам пород кристаллического фундамента

14. Выберите правильное утверждение:

1б

А. Ксерофиты - растения, хорошо переносящие засоление
Б. Эндемик пустыни Атакамы - сейба
В. Наибольшая фитомасса (масса всех растений) характерна для саванн
Г. Ягель и вельвичия не могут произрастать на одной территории

15. В какую сторону будет дуть морской бриз днем на побережье острова в северном полушарии?

0

А. С суши на море
Б. С моря на сушу
В. Вдоль береговой линии по часовой стрелке
Г. Вдоль береговой линии против часовой стрелке

16. Выберите пару животных, которые могут встретиться в естественных условиях:

1б

А. Вомбат и кенгуру
Б. Броненосец и горилла
В. Ехидна и птица-секретарь
Г. Панда и антилопа-вилорог

9б

Итого – 16 баллов

Г0803

Аналитический тур

Время выполнения – 25 мин

Задание № 1 (максимальный балл – 18)

Многие географические объекты похожи друг на друга по своим природным особенностям, хотя располагаются в разных уголках нашей планеты.

Подберите российские аналоги для таких известных географических объектов мира, как **Танганьика, Эри и Онтарио, Лабрадор, Фанди, Аппалачи, Миссисипи**. Для каждой пары «двойников» постарайтесь назвать две причины их сходства.

Задание № 2 (максимальный балл - 20)

«Данная форма рельефа является частью одной из **крупнейших равнин России**. В основании этой формы рельефа залегают известняки, мергели и глины каменноугольного возраста, слагающие северо-западное крыло одной из тектонической структур **древней платформы**. На них неровным плащом залегают рыхлые **четвертичные отложения**, сформированные **неким процессом** в конце плейстоцена. Максимальная высота – 343 метра.

Эта территория является частью **«великого водораздела»**. Здесь берут начало реки, несущие свои воды в разные **«моря»**. Три самых крупных из них стали **«великими»** в своих **странах**, по территории которых они протекают. Мягкий климат с повышенным (до 800 мм) количеством осадков и холмистый рельеф с множеством котловин стали причиной сильной заболоченности территории и обилия **озер»**.

Определите:

Название формы рельефа; частью какой крупной равнины она является; название платформы; название процесса и отложений, которыми была сформирована; водораздел, каких бассейнов здесь проходит; название морей; реки и страны, по территории которых они протекают; самое известное озеро.

Из трех климатограмм выберите ту, которая соответствует климату территории, о которой идет речь. Назовите этот тип климата. Исходя из анализа климатограмм, назовите две причины вашего выбора.

Климатограмма № 1 Климатограмма № 2 Климатограмма № 3

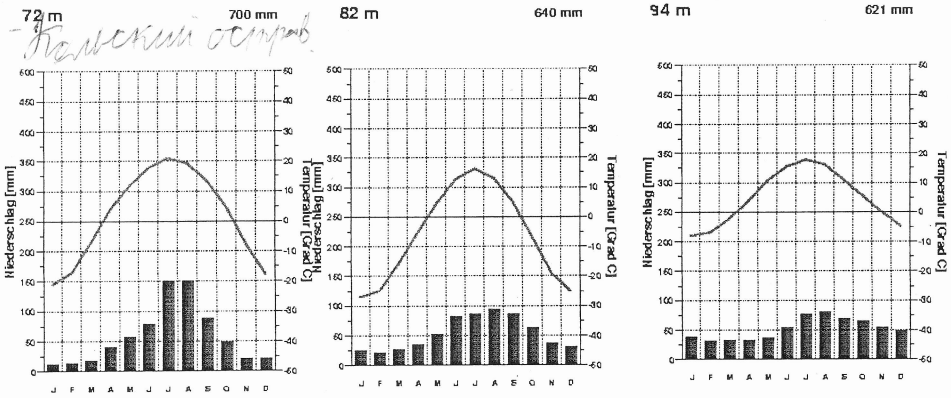

Итого-38 баллов

Всего: 27б

Председатель Решетникова Е.А.

Члены жюри Назарова О.Н.

Крюкова Б.В.

8 класс Годов

Теоретический тур

Время выполнения – 20 минут. За каждое задание – 1 балл. Максимум за теоретический тур – 16 баллов. За аналитический тур – 38 баллов. Всего – 54 балла.

1. Южный полярный круг впервые был пересечен экспедицией под руководством:

А. Фаддея Беллинсгаузена
Б. Джеймса Кука
В. Абеля Тасмана
Г. Рональда Амундсена

2. Какой из перечисленных материков имеет наибольшую среднюю высоту дневной поверхности над уровнем моря?

А. Антарктида
Б. Южная Америка
В. Евразия
Г. Северная Америка

3. Кто из перечисленных путешественников исследовал наиболее северные районы страны?

А. Н.М. Пржевальский
Б. Ермак
В. И.Д. Черский
Г. И. Москвитин

4. Над какой территорией, в среднем, атмосферное давление зимой выше?

А. Восточная Сибирь
Б. Исландия
В. Индо-Гангская низменность
Г. Командорские острова

5. Карелию часто называют «страной тысячи озер». Какая еще территория может претендовать на подобный «титул»?

А. Колымская низменность
Б. Среднерусская возвышенность
В. Общий Сырт
Г. Прикаспийская низменность

6. Выберите правильное соответствие «природная зона - почвы»:

А. Смешанные леса - подзолистые
Б. Субтропические леса - красно-бурые почвы
В. Широколиственные леса – дерново-подзолистые
Г. Степь - черноземы

7. В каком штате США стрелка компаса показывает не на север, а на восток?

А. Гавайи
Б. Аляска
В. Калифорния
Г. Вайоминг

8. Наибольшая часть населения Земли проживает:

А. На прибрежных низменностях
Б. В предгорных регионах
В. На высотах 1000-2000 м
Г. Во внутриконтинентальных региона

9. Какая часть России может подвергаться разрушительному воздействию тропических ураганов?

А. Черноморское побережье
Б. Приморский край
В. Калмыкия
Г. Южная Сибирь

10.Ближе всего к высочайшей вершине какого материка 22 июня в полдень по Гринвичу Солнце находится в зените?

А. Евразия
Б. Африка
В. Южная Америка
Г. Австралия

11. Какое из этих морей расположено преимущественно на земной коре океанического типа?

А. Саргассово
Б. Белое
В. Чукотское
Г. Балтийское

12. Какая из этих форм рельефа не создана деятельностью ледника?

А. Бараньи лбы
Б. Терриконы
В. Камы
Г. Морены

13. Основные запасы нефти в России приурочены к…:

А. Мезозойскому осадочному чехлу
Б. Краевому предгорному прогибу, сформировавшемуся в Кайнозое
В. Зонам байкальской складчатости
Г. Выходам пород кристаллического фундамента

14. Выберите правильное утверждение:

А. Ксерофиты - растения, хорошо переносящие засоление
Б. Эндемик пустыни Атакамы - сейба
В. Наибольшая фитомасса (масса всех растений) характерна для саванн
Г. Ягель и вельвичия не могут произрастать на одной территории

15. В какую сторону будет дуть морской бриз днем на побережье острова в северном полушарии?

А. Є суши на море
Б. С моря на сушу
В. Вдоль береговой линии по часовой стрелке
Г. Вдоль береговой линии против часовой стрелке

16. Выберите пару животных, которые могут встретиться в естественных условиях:

А. Вомбат и кенгуру
Б. Броненосец и горилла
В. Ехидна и птица-секретарь
Г. Панда и антилопа-вилорог

/10б

Итого – 16 баллов

Г0804

Аналитический тур

Время выполнения – 25 мин

Задание № 1 (максимальный балл – 18)

Многие географические объекты похожи друг на друга по своим природным особенностям, хотя располагаются в разных уголках нашей планеты.

Подберите российские аналоги для таких известных географических объектов мира, как **Танганьика, Эри и Онтарио, Лабрадор, Фанди, Аппалачи, Миссисипи**. Для каждой пары «двойников» постарайтесь назвать две причины их сходства.

Задание № 2 (максимальный балл - 20)

«Данная форма рельефа является частью одной из **крупнейших равнин России**. В основании этой формы рельефа залегают известняки, мергели и глины каменноугольного возраста, слагающие северо-западное крыло одной из тектонической структур **древней платформы**. На них неровным плащом залегают рыхлые **четвертичные отложения**, сформированные **неким процессом** в конце плейстоцена. Максимальная высота – 343 метра.

Эта территория является частью **«великого водораздела»**. Здесь берут начало реки, несущие свои воды в разные **«моря»**. Три самых крупных из них стали **«великими»** в своих **странах**, по территории которых они протекают. Мягкий климат с повышенным (до 800 мм) количеством осадков и холмистый рельеф с множеством котловин стали причиной сильной заболоченности территории и обилия **озер»**.

Определите:

Название формы рельефа; частью какой крупной равнины она является; название платформы; название процесса и отложений, которыми была сформирована; водораздел, каких бассейнов здесь проходит; название морей; реки и страны, по территории которых они протекают; самое известное озеро.

Из трех климатограмм выберите ту, которая соответствует климату территории, о которой идет речь. Назовите этот тип климата. Исходя из анализа климатограмм, назовите две причины вашего выбора.

Климатограмма № 1 Климатограмма № 2 Климатограмма № 3

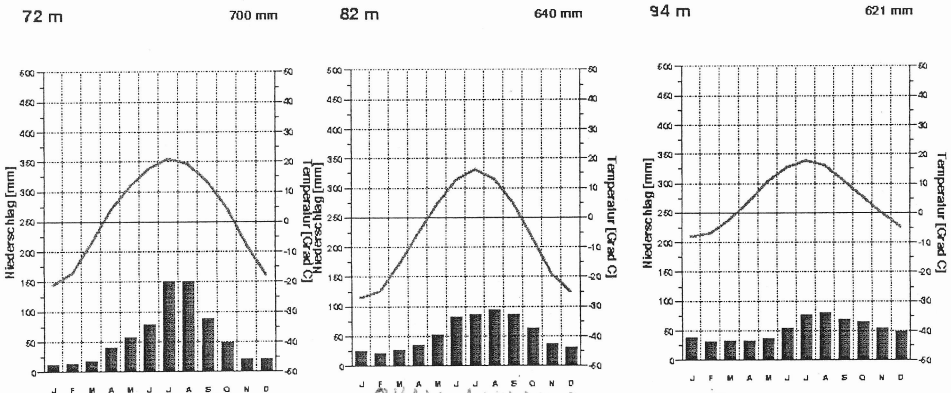

Швейцария Скандинавия Франция

Итого-38 баллов

Всего: 29б

Председатель Гетманцева Е.М.

Члены жюри Назарова О.Н.

Крилтасова Ю.В.

Г0602

20.Звезда, благодаря наблюдениям за которой древние египтяне создали календарь:

0б

А) СириусБ) СолнцеВ) БетельгейзеГ) Альциона

/9б

Часть II.Рекомендуемое время выполнения задания 5 минут.
Максимальное количество баллов-2.
0,5 балла за каждый верный ответ.

Вам необходимо определить какое суждение верное, а какое нет. Напротив верного суждения написать слово «да», напротив не верного суждения написать слово «нет».

2б

1. Уран и Нептун называют планетами-близнецами да
2. Рельеф Земли - это только горы нет
3. Африка- самый сухой материк на Земле нет
4. Ураганы возникают над тропическими морями да

Часть III.Рекомендуемое время выполнения задания -5 минут.
Максимальное количество баллов -2.
0,5 балл за каждый верный ответ.

Правильно установите соответствие между названием материка и животным, обитающем на этом материке. Ответ в виде цифр запишите в таблицу, расположенную после задания.

Название материка	Представитель животного мира
А) Австралия	1. Белый носорог
Б) Антарктида	2.Утконос
В) Африка	3.Императорский пингвин
Г) Южная Америка	4.Ленивец

1б

А	Б	В	Г
4	3	1	2

Часть IV.Рекомендуемое время выполнения задания -5 минут.
Максимальное количество баллов -2.
0,5 балл за каждый верный ответ.

Назовите известные вам названия цветных морей. В ответе должны прозвучать названия четырёх морей.

Красное море, черное море, 1б

Часть V.

Задание 1. Рекомендуемое время выполнения задания -5 минут.
Максимальное количество баллов -5.
2,5 балла за каждый верный ответ.

В польском городе Торунь на одном из домов на каменной плите значится надпись со следующими словами: «19 февраля 1473 года он остановил Солнце, раскрутил Землю и прославил польское племя».

1) О ком идёт речь? ~~Христ~~ Галилео. 0б

2) Какое открытие принадлежит этому человеку? Он доказал что земля

Задание 2. Рекомендуемое время выполнения задания -5 минут.
Максимальное количество баллов -5.

2) он доказал что земля вращается вокруг солнца, а не солнце вокруг земли

Верхушки деревьев под напором ветра, сбрасывая листву, склоняли свои ветви к заходящему Солнцу. По лесу шёл путник, придерживая шляпу, чтобы встречный ветер не сорвал её с головы. Пройдя некоторое расстояние, путник повернул налево и продолжил свой путь перпендикулярно под углом 90 градусов) к пройденной дороге. Укажите направление (север,юг,запад,восток), в котором стал двигаться путник. север

2,5б

Максимальное количество баллов за всю работу-36

Всего - 15,5б

Председатель Рассмотрено

Члены жюри Назарова О.Н.

Кравцова Л.В.

Г0602

Первый этап Всероссийской олимпиады школьников.
География. 6 класс. 2016-2017 гг.

Время выполнения работы- 45 минут

I часть. Тестовый раунд.

Рекомендуемое время выполнения – 20 минут.
Максимальное количество баллов - 20
1 балл за каждый верный ответ.

В каждом случае необходимо выбрать один верный ответ

0б **1. К магматическим горным породам относится:**
А) известнякБ) красный песчаникВ) пемзаГ) торф

0б **2. Как называется прибор, который фиксирует состояние земной коры:**
А) компасБ) нивелирВ) барометрГ) сейсмограф

0б **3. Какая гора является высочайшей вершиной суши:**
А) КилиманджароБ) ЭльбрусВ) АконкагуаГ) Джомолунгма

1б **4.Горы на карте обозначаются цветом:**
А) голубымБ) жёлтымВ) коричневымГ) зелёным

0б **5. Первым предположил, что Земля имеет форму шара:**
А) АристотельБ) Пифагор Самосский
В) ПтолемейГ) Страбон

1б **6. Первое кругосветное путешествие совершила экспедиция:**
А) Христофора КолумбаБ) Фернана Магеллана
В) Васко да ГамаГ) Марко Поло

0б **7.Антарктиду открыл:**
А) Христофор КолумбБ) Фернан Магеллан
В) Мартин БехаймГ) ФаддейБеллингаузен

0б **8. Литосфера это:**
А) земная кора и верхний слой мантии до глубины 50-200 км.
Б) земная кора
В) земная кора и мантия
Г) земная кора, мантия, ядро

1б **9. Мировой Океан составляет от площади суши примерно:**
А) 50%Б) 90%В) 70%Г) 30%

1б **10. Для какой природной зоны характерны такие показатели, как постоянно высокая температура круглый год,большое количество круглогодично и ежедневно выпадающих атмосферных осадков:**
А) тайгаБ) степьВ) влажный экваториальный лесГ) тундра

1б **11.Коренные жители Америки:**
А) индейцыБ) индийцыВ) инкиГ) персы

0 **12. Васко да Гама открыл морской путь:**
А) в АфрикуБ) в ИндиюВ) в АнтарктидуГ) в Австралию

1 **13. Самая дальняя планета от Солнца из планет Земной группы:**
А) ЗемляБ) МарсВ) ВенераГ) Меркурий

0 **14.Самая большая планета Солнечной системы это:**
А) НептунБ) СатурнВ) ЮпитерГ) Меркурий

0 **15.Смена времён года на Земле обусловлена:**
А) осевым вращением ЗемлиБ) действием приливных сил
В) вращением Земли вокруг СолнцаГ) притяжением Луны и Земли

1б **16. Прибор для измерения сторон горизонта называется:**
А) нивелирВ) барометрВ) компасГ) глазомер

1б **17. Главное занятие населения тундры:**
А) оленеводствоБ) растениводство
В) садоводствоГ) работа на заводах и фабриках

1б **18. Гейзером называют источник, периодически выбрасывающий из земных недр:**
А) лавуБ) горячую воду и пар
В) газы и пыльГ) грязевые потоки

0 **19. Кто является автором первого средневекового глобуса, дошедшего до наших дней:**
А) АнаксимандрБ) Пифагор
В) Мартин БехаймГ) Эратосфен

Го603

Первый этап Всероссийской олимпиады школьников.
География. 6 класс. 2016-2017 гг.

Время выполнения работы- 45 минут

I часть. Тестовый раунд.

Рекомендуемое время выполнения – 20 минут.
Максимальное количество баллов - 20
1 балл за каждый верный ответ.

В каждом случае необходимо выбрать один верный ответ

0б **1. К магматическим горным породам относится:**
А) известнякБ) красный песчаникВ) пемзаГ) торф

0б **2. Как называется прибор, который фиксирует состояние земной коры:**
А) компасБ) нивелирВ) барометрГ) сейсмограф

1б **3. Какая гора является высочайшей вершиной суши:**
А) КилиманджароБ) ЭльбрусВ) АконкагуаГ) Джомолунгма

4.Горы на карте обозначаются цветом:
1б А) голубымБ) жёлтымВ) коричневымГ) зелёным

5. Первым предположил, что Земля имеет форму шара:
1б А) АристотельБ) Пифагор Самосский
В) ПтолемейГ) Страбон

6. Первое кругосветное путешествие совершила экспедиция:
1б А) Христофора КолумбаБ) Фернана Магеллана
В) Васко да ГамаГ) Марко Поло

7.Антарктиду открыл:
0б А) Христофор КолумбБ) Фернан Магеллан
В) Мартин БехаймГ)ФаддейБеллингаузен

8. Литосфера это:
1б А) земная кора и верхний слой мантии до глубины 50-200 км.
Б) земная кора
В) земная кора и мантия
Г) земная кора, мантия, ядро

0б **9. Мировой Океан составляет от площади суши примерно:**
А) 50%Б) 90%В) 70%Г) 30%

1б **10. Для какой природной зоны характерны такие показатели, как постоянно высокая температура круглый год,большое количество круглогодично и ежедневно выпадающих атмосферных осадков:**
А) тайгаБ) степьВ) влажный экваториальный лесГ) тундра

11.Коренные жители Америки:
1б А) индейцыБ) индийцыВ) инкиГ) персы

12. Васко да Гама открыл морской путь:
1б А) в АфрикуБ) в ИндиюВ) в АнтарктидуГ) в Австралию

13. Самая дальняя планета от Солнца из планет Земной группы:
1б А) ЗемляБ) МарсВ) ВенераГ) Меркурий

14.Самая большая планета Солнечной системы это:
1б А) НептунБ) СатурнВ) ЮпитерГ) Меркурий

15.Смена времён года на Земле обусловлена:
А) осевым вращением ЗемлиБ) действием приливных сил
1б В) вращением Земли вокруг СолнцаГ) притяжением Луны и Земли

16. Прибор для измерения сторон горизонта называется:
1б А) нивелирВ) барометрВ) компасГ) глазомер

17. Главное занятие населения тундры:
1б А) оленеводствоБ) растениводство
В) садоводствоГ) работа на заводах и фабриках

18. Гейзером называют источник, периодически выбрасывающий из земных недр:
1б А) лавуБ) горячую воду и пар
В) газы и пыльГ) грязевые потоки

19. Кто является автором первого средневекового глобуса, дошедшего до наших дней:
0б А) АнаксимандрБ) Пифагор
В) Мартин БехаймГ) Эратосфен

Г0603

20.Звезда, благодаря наблюдениям за которой древние египтяне создали календарь:

0б

А) СириусБ) СолнцеВ) БетельгейзеГ) Альциона

14б

Часть II.Рекомендуемое время выполнения задания 5 минут.
Максимальное количество баллов-2.
0,5 балла за каждый верный ответ.

Вам необходимо определить какое суждение верное, а какое нет. Напротив верного суждения написать слово «да», напротив не верного суждения написать слово «нет».

0,5б

1. Уран и Нептун называют планетами-близнецами да
2. Рельеф Земли - это только горы да
3. Африка- самый сухой материк на Земле нет
4. Ураганы возникают над тропическими морями нет

Часть III.Рекомендуемое время выполнения задания -5 минут.
Максимальное количество баллов -2.
0,5 балл за каждый верный ответ.

Правильно установите соответствие между названием материка и животным, обитающем на этом материке. Ответ в виде цифр запишите в таблицу, расположенную после задания.

Название материка	Представитель животного мира
А) Австралия	1. Белый носорог
Б) Антарктида	2.Утконос
В) Африка	3.Императорский пингвин
Г) Южная Америка	4.Ленивец

2б

А	Б	В	Г
2	3	1	4

Часть IV.Рекомендуемое время выполнения задания -5 минут.
Максимальное количество баллов -2.
0,5 балл за каждый верный ответ.

1,5б

Назовите известные вам названия цветных морей. В ответе должны прозвучать названия четырёх морей.

Красное море, желтое море, черное море, синее море

Часть V.

Задание 1. Рекомендуемое время выполнения задания -5 минут.
Максимальное количество баллов -5.
2,5 балла за каждый верный ответ.

В польском городе Торунь на одном из домов на каменной плите значится надпись со следующими словами: «19 февраля 1473 года он остановил Солнце, раскрутил Землю и прославил польское племя».

1) О ком идёт речь?
о человеке

2) Какое открытие принадлежит этому человеку?
он остановил Солнце, раскрутил Землю и прославил польское племя

0б

Задание 2. Рекомендуемое время выполнения задания -5 минут.
Максимальное количество баллов -5.

Верхушки деревьев под напором ветра, сбрасывая листву, склоняли свои ветви к заходящему Солнцу. По лесу шёл путник, придерживая шляпу, чтобы встречный ветер не сорвал её с головы. Пройдя некоторое расстояние, путник повернул налево и продолжил свой путь перпендикулярно под углом 90 градусов) к пройденной дороге. Укажите направление (север,юг,запад,восток), в котором стал двигаться путник.

На юг.

0б.

Максимальное количество баллов за всю работу-36

Всего 18б

Председатель Ф Ромашко Е.М.
Члены комиссии Кодорова О.Н.
Кривошеева Н.В.

Г0604

Первый этап Всероссийской олимпиады школьников.
География. 6 класс. 2016-2017 гг.

Время выполнения работы- 45 минут

I часть. Тестовый раунд.

Рекомендуемое время выполнения – 20 минут.
Максимальное количество баллов - 20
1 балл за каждый верный ответ.

В каждом случае необходимо выбрать один верный ответ

1. К магматическим горным породам относится:
0 А) известнякБ) красный песчаникВ) пемзаГ) торф

2. Как называется прибор, который фиксирует состояние земной коры:
0 А) компасБ) нивелирВ) барометрГ) сейсмограф

3. Какая гора является высочайшей вершиной суши:
1б А) КилиманджароБ) ЭльбрусВ) АконкагуаГ) Джомолунгма

4.Горы на карте обозначаются цветом:
1б А) голубымБ) жёлтымВ) коричневымГ) зелёным

5. Первым предположил, что Земля имеет форму шара:
1б А) АристотельБ) Пифагор Самосский
В) ПтолемейГ) Страбон

6. Первое кругосветное путешествие совершила экспедиция:
1б А) Христофора КолумбаБ) Фернана Магеллана
В) Васко да ГамаГ) Марко Поло

7.Антарктиду открыл:
1б А) Христофор КолумбБ) Фернан Магеллан
В) Мартин БехаймГ)ФаддейБеллингаузен

8. Литосфера это:
А) земная кора и верхний слой мантии до глубины 50-200 км.
0б Б) земная кора
В) земная кора и мантия
Г) земная кора, мантия, ядро

9. Мировой Океан составляет от площади суши примерно:
0 А) 50%Б) 90%В) 70%Г) 30%

10. Для какой природной зоны характерны такие показатели, как постоянно высокая температура круглый год,большое количество круглогодично и ежедневно выпадающих атмосферных осадков:
1б А) тайгаБ) степьВ) влажный экваториальный лесГ) тундра

11.Коренные жители Америки:
1б А) индейцыБ) индийцыВ) инкиГ) персы

12. Васко да Гама открыл морской путь:
0 А) в АфрикуБ) в ИндиюВ) в АнтарктидуГ) в Австралию

13. Самая дальняя планета от Солнца из планет Земной группы:
0 А) ЗемляБ) МарсВ) ВенераГ) Меркурий

14.Самая большая планета Солнечной системы это:
1б А) НептунБ) СатурнВ) ЮпитерГ) Меркурий

15.Смена времён года на Земле обусловлена:
А) осевым вращением ЗемлиБ) действием приливных сил
0 В) вращением Земли вокруг СолнцаГ) притяжением Луны и Земли

16. Прибор для измерения сторон горизонта называется:
0 А) нивелирВ) барометрВ) компасГ) глазомер

17. Главное занятие населения тундры:
1б А) оленеводствоБ) растениводство
В) садоводствоГ) работа на заводах и фабриках

18. Гейзером называют источник, периодически выбрасывающий из земных недр:
1б А) лавуБ) горячую воду и пар
В) газы и пыльГ) грязевые потоки

19. Кто является автором первого средневекового глобуса, дошедшего до наших дней:
0 А) АнаксимандрБ) Пифагор
В) Мартин БехаймГ) Эратосфен

Г0604

20.Звезда, благодаря наблюдениям за которой древние египтяне создали календарь:

1б

А) СириусБ) СолнцеВ) БетельгейзеГ) Альциона

11б

Часть II.Рекомендуемое время выполнения задания 5 минут.
Максимальное количество баллов-2.
0,5 балла за каждый верный ответ.

Вам необходимо определить какое суждение верное, а какое нет. Напротив верного суждения написать слово «да», напротив не верного суждения написать слово «нет».

1,5б

1. Уран и Нептун называют планетами-близнецами да
2. Рельеф Земли - это только горы нет
3. Африка- самый сухой материк на Земле нет
4. Ураганы возникают над тропическими морями нет

Часть III.Рекомендуемое время выполнения задания -5 минут.
Максимальное количество баллов -2.
0,5 балл за каждый верный ответ.

Правильно установите соответствие между названием материка и животным, обитающем на этом материке. Ответ в виде цифр запишите в таблицу, расположенную после задания.

Название материка	Представитель животного мира
А) Австралия	1. Белый носорог
Б) Антарктида	2.Утконос
В) Африка	3.Императорский пингвин
Г) Южная Америка	4.Ленивец

2б

А	Б	В	Г
2	3	1	4

Часть IV.Рекомендуемое время выполнения задания -5 минут.
Максимальное количество баллов -2.
0,5 балл за каждый верный ответ.

Назовите известные вам названия цветных морей. В ответе должны прозвучать названия четырёх морей. Чёрное море, красное море, белое море, жёлтое море. 2б

Часть V.

Задание 1. Рекомендуемое время выполнения задания -5 минут.
Максимальное количество баллов -5.
2,5 балла за каждый верный ответ.

В польском городе Торунь на одном из домов на каменной плите значится надпись со следующими словами: «19 февраля 1473 года он остановил Солнце, раскрутил Землю и прославил польское племя».

1) О ком идёт речь?

2) Какое открытие принадлежит этому человеку?

Задание 2. Рекомендуемое время выполнения задания -5 минут.
Максимальное количество баллов -5.

Верхушки деревьев под напором ветра, сбрасывая листву, склоняли свои ветви к заходящему Солнцу. По лесу шёл путник, придерживая шляпу, чтобы встречный ветер не сорвал её с головы. Пройдя некоторое расстояние, путник повернул налево и продолжил свой путь перпендикулярно под углом 90 градусов) к пройденной дороге. Укажите направление (север,юг,запад,восток), в котором стал двигаться путник.

2,5

Максимальное количество баллов за всю работу-36

Всего 19б.

Председатель Члены жюри Ремизова Е.Н. Назарова О.Н. Кривитарова Т.В.

Г0707

Олимпиадные задания для проведения школьного этапа всероссийской олимпиады школьников в 2016 -2017 учебном году по географии в 7 классе

При выполнении заданий этой части выбери один верный вариант ответа, обведи номер выбранного ответа

1. Каков численный масштаб плана, на котором расстояние от автобусной остановки до стадиона, составляющее 750 м, изображено отрезком длиной 3 см.

А. 1: 25
Б. 1: 250
В. 1: 2500
Г. 1: 25 000

1б

Критерии оценивания: 1 балл

2. Определите примерную высоту горы, если известно, что у её подножия температура воздуха составила + 20°С, а на её вершине -16 °С(1 балл)

А. 4 км
Б. 6 км
В. 600 м
Г. 2 км

0б

Критерии оценивания: 1 балл

3.Определите правильно среднесуточную температуру воздуха по следующим данным:
в 6 ч. +10° С; в 12 ч. +15° С; в 18 ч. +13° С; в 20 ч. + 11° С:(1 балл)

А. +11° С
Б. -5° С
В. +12,25° С
Г. +9, 25° С

1б

Критерии оценивания: 1 балл

4. Выберите дату, когда оба полушария Земли освещены одинаково

А. 21 марта
Б. 22 июня
В. 15 сентября
Г. 1 января

1б

Критерии оценивания: 1 балл

5. Самая длинная река Австралии

А. Муррей
Б. Миссисипи
В. Амазонка
Г. Янцзы

1б

Критерии оценивания: 1 балл

6.Укажите верное утверждение

А. Восточно-Европейская равнина имеет плоскую поверхность
Б. Алтайские горы расположены на материке Евразия
В. Вулкан Ключевская Сопка расположен на Скандинавском полуострове
Г. Гора Казбек – самая высокая вершина Кавказа.

0б

Критерии оценивания: 1 балл

7. Как называется узкая глубокая впадина с крутыми склонами, возникающая в результате действия текучих (дождевых, талых) вод?

А. Котловина
Б. Курган
В. Овраг
Г. Дюна

0б

Критерии оценивания: 1 балл

8.Какое соответствие «горная порода – её тип по происхождению» является верным?

А. Глина – магматическая
Б. Гранит – осадочная
В. Мрамор – метаморфическая
Г. Базальт – осадочная

0б

Критерии оценивания: 1 балл

9.Как называется природная зона с преобладанием травянистой растительности?

А. Смешанный лес
Б. Тайга
В. Степь
Г. Влажные экваториальные леса

1б

Критерии оценивания: 1 балл

10. Самый высокий водопад в мире (1054 метра), названный в честь лётчика, который пролетел над водопадом в 1933 году.

А. Ниагарский
Б. Виктория
В. Анхель
Г. Игуасу

0б

Критерии оценивания: 1 балл

Г0801

Аналитический тур

Время выполнения – 25 мин

Задание № 1 (максимальный балл – 18)

Многие географические объекты похожи друг на друга по своим природным особенностям, хотя располагаются в разных уголках нашей планеты.

Подберите российские аналоги для таких известных географических объектов мира, как **Танганьика, Эри и Онтарио, Лабрадор, Фанди, Аппалачи, Миссисипи**. Для каждой пары «двойников» постарайтесь назвать две причины их сходства.

Задание № 2 (максимальный балл - 20)

«Данная форма рельефа является частью одной из **крупнейших равнин России**. В основании этой формы рельефа залегают известняки, мергели и глины каменноугольного возраста, слагающие северо-западное крыло одной из тектонической структур **древней платформы**. На них неровным плащом залегают рыхлые **четвертичные отложения**, сформированные **неким процессом** в конце плейстоцена. Максимальная высота – 343 метра.

Эта территория является частью **«великого водораздела»**. Здесь берут начало реки, несущие свои воды в разные **«моря»**. Три самых крупных из них стали **«великими»** в своих **странах**, по территории которых они протекают. Мягкий климат с повышенным (до 800 мм) количеством осадков и холмистый рельеф с множеством котловин стали причиной сильной заболоченности территории и обилия **озер»**.

Определите:

Название формы рельефа; частью какой крупной равнины она является; название платформы; название процесса и отложений, которыми была сформирована; водораздел, каких бассейнов здесь проходит; название морей; реки и страны, по территории которых они протекают; самое известное озеро.

Из трех климатограмм выберите ту, которая соответствует климату территории, о которой идет речь. Назовите этот тип климата. Исходя из анализа климатограмм, назовите две причины вашего выбора.

Климатограмма № 1 Климатограмма № 2 Климатограмма № 3

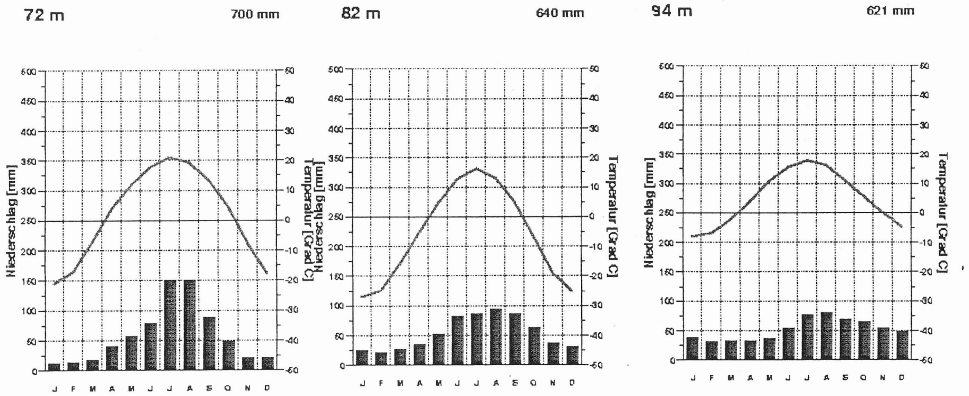

Итого-38 баллов

Всего 19б

Председатель ПК Ремизова Е.М.

Члены жюри Назарова О.И.

Крюгер Кривошеев В.

Г0801

8 класс

Теоретический тур

Время выполнения – 20 минут. За каждое задание – 1 балл. Максимум за теоретический тур – 16 баллов. За аналитический тур – 38 баллов. Всего – 54 балла.

1. Южный полярный круг впервые был пересечен экспедицией под руководством:

0б А. Фаддея Беллинсгаузена
Б. Джеймса Кука
1б В. Абеля Тасмана
Г. Рональда Амундсена

2. Какой из перечисленных материков имеет наибольшую среднюю высоту дневной поверхности над уровнем моря?

0б А. Антарктида
Б. Южная Америка
В. Евразия
Г. Северная Америка

3. Кто из перечисленных путешественников исследовал наиболее северные районы страны?

0б А. Н.М. Пржевальский
Б. Ермак
В. И.Д. Черский
Г. И. Москвитин

4. Над какой территорией, в среднем, атмосферное давление зимой выше?

0б А. Восточная Сибирь
Б. Исландия
В. Индо-Гангская низменность
Г. Командорские острова

5. Карелию часто называют «страной тысячи озер». Какая еще территория может претендовать на подобный «титул»?

1б А. Колымская низменность
Б. Среднерусская возвышенность
В. Общий Сырт
Г. Прикаспийская низменность

6. Выберите правильное соответствие «природная зона - почвы»:

А. Смешанные леса - подзолистые
1б Б. Субтропические леса - красно-бурые почвы
В. Широколиственные леса – дерново-подзолистые
0 Г. Степь - черноземы

7. В каком штате США стрелка компаса показывает не на север, а на восток?

1б А. Гавайи
Б. Аляска
В. Калифорния
Г. Вайоминг

8. Наибольшая часть населения Земли проживает:

А. На прибрежных низменностях
0б Б. В предгорных регионах
В. На высотах 1000-2000 м
Г. Во внутриконтинентальных региона

9. Какая часть России может подвергаться разрушительному воздействию тропических ураганов?

0б А. Черноморское побережье
Б. Приморский край
В. Калмыкия
Г. Южная Сибирь

10.Ближе всего к высочайшей вершине какого материка 22 июня в полдень по Гринвичу Солнце находится в зените?

0 А. Евразия
Б. Африка
В. Южная Америка
Г. Австралия

11. Какое из этих морей расположено преимущественно на земной коре океанического типа?

А. Саргассово
0 Б. Белое
В. Чукотское
Г. Балтийское

12. Какая из этих форм рельефа не создана деятельностью ледника?

0 А. Бараньи лбы
Б. Терриконы
В. Камы
Г. Морены

13. Основные запасы нефти в России приурочены к…:

А. Мезозойскому осадочному чехлу
1б Б. Краевому предгорному прогибу, сформировавшемуся в Кайнозое
В. Зонам байкальской складчатости
Г. Выходам пород кристаллического фундамента

14. Выберите правильное утверждение:

А. Ксерофиты - растения, хорошо переносящие засоление
0 Б. Эндемик пустыни Атакамы - сейба
В. Наибольшая фитомасса (масса всех растений) характерна для саванн
Г. Ягель и вельвичия не могут произрастать на одной территории

15. В какую сторону будет дуть морской бриз днем на побережье острова в северном полушарии?

А. С суши на море
1б Б. С моря на сушу
В. Вдоль береговой линии по часовой стрелке
Г. Вдоль береговой линии против часовой стрелке

16. Выберите пару животных, которые могут встретиться в естественных условиях:

1б А. Вомбат и кенгуру
Б. Броненосец и горилла
В. Ехидна и птица-секретарь
Г. Панда и антилопа-вилорог

/6б

Итого – 16 баллов

Г 0709

11. Где на Земле можно построить дом, чтобы все его окна выходили на север?

А. На экваторе

0б Б. На северном полюсе

В. На южном полюсе

Г. На северном тропике

Критерии оценивания: 1 балл

12. Самая многоводная река планеты

А. Нил

1б Б. Амазонка

В. Волга

Г. Миссисипи

Критерии оценивания: 1 балл

13. Какие хищные млекопитающие обитают в Арктике?

А.Пингвины

Б. Морские огурцы

1б В. Морские леопарды

Г. Белые медведи

Критерии оценивания: 1 балл

14. Кто из европейцев первым проложил морской путь из Европы в Индию, обогнув Африку?

А. Марко Поло

1б Б. Васко да Гама

В. Афанасий Никитин

Г. Джеймс Кук

Критерии оценивания: 1 балл

15. На каком материке находится одно из самых влажных мест на Земле Черапунджи?

А. Северная Америка

1б Б. Южная Америка

В. Австралия

Г. Евразия

Критерии оценивания: 1 балл

Всего /11б

Рекомендации:

Максимальное количество баллов – 15 баллов

Время выполнения заданий – 45 минут

Председатель: Ф. Гилимова С.Н.

Члены жюри: Жаров Кадырова О.Н.

Крылатова Ю.В.

Г0709

Олимпиадные задания для проведения школьного этапа всероссийской олимпиады школьников в 2016 -2017 учебном году по географии в 7 классе

При выполнении заданий этой части выбери один верный вариант ответа, обведи номер выбранного ответа

1. Каков численный масштаб плана, на котором расстояние от автобусной остановки до стадиона, составляющее 750 м, изображено отрезком длиной 3 см.

0б

А. 1: 25
Б. 1: 250
В. 1: 2500
Г. 1: 25 000
Критерии оценивания: 1 балл

2. Определите примерную высоту горы, если известно, что у её подножия температура воздуха составила + 20°С, а на её вершине -16 °С(1 балл)

0б

А. 4 км
Б. 6 км
В. 600 м
Г. 2 км
Критерии оценивания: 1 балл

3.Определите правильно среднесуточную температуру воздуха по следующим данным:
в 6 ч. +10° С; в 12 ч. +15° С; в 18 ч. +13° С; в 20 ч. + 11° С:(1 балл)

1б

А. +11° С
Б. -5° С
В.+12,25° С
Г.+9, 25° С
Критерии оценивания: 1 балл

4. Выберите дату, когда оба полушария Земли освещены одинаково

1б

А.21 марта
Б. 22 июня
В.15 сентября
Г. 1 января
Критерии оценивания: 1 балл

5. Самая длинная река Австралии

1б

А. Муррей
Б. Миссисипи
В. Амазонка
Г. Янцзы
Критерии оценивания: 1 балл

6.Укажите верное утверждение

1б

А. Восточно-Европейская равнина имеет плоскую поверхность
Б. Алтайские горы расположены на материке Евразия
В. Вулкан Ключевская Сопка расположен на Скандинавском полуострове
Г. Гора Казбек – самая высокая вершина Кавказа.
Критерии оценивания: 1 балл

7. Как называется узкая глубокая впадина с крутыми склонами, возникающая в результате действия текучих (дождевых, талых) вод?

1б

А. Котловина
Б. Курган
В. Овраг
Г. Дюна
Критерии оценивания: 1 балл

8.Какое соответствие «горная порода – её тип по происхождению» является верным?

0б

А. Глина – магматическая
Б. Гранит – осадочная
В. Мрамор – метаморфическая
Г. Базальт – осадочная
Критерии оценивания: 1 балл

9.Как называется природная зона с преобладанием травянистой растительности?

1б

А. Смешанный лес
Б. Тайга
В. Степь
Г. Влажные экваториальные леса
Критерии оценивания: 1 балл

10. Самый высокий водопад в мире (1054 метра), названный в честь лётчика, который пролетел над водопадом в 1933 году.

1б

А. Ниагарский
Б. Виктория
В. Анхель
Г. Игуасу
Критерии оценивания: 1 балл

Г0703

11. Где на Земле можно построить дом, чтобы все его окна выходили на север?

А. На экваторе
Б. На северном полюсе
В. На южном полюсе
Г. На северном тропике

0б

Критерии оценивания: 1 балл

12. Самая многоводная река планеты

А. Нил
Б. Амазонка
В. Волга
Г. Миссисипи

1б

Критерии оценивания: 1 балл

13. Какие хищные млекопитающие обитают в Арктике?

А.Пингвины
Б. Морские огурцы
В. Морские леопарды
Г. Белые медведи

0б

Критерии оценивания: 1 балл

14. Кто из европейцев первым проложил морской путь из Европы в Индию, обогнув Африку?

А. Марко Поло
Б. Васко да Гама
В. Афанасий Никитин
Г. Джеймс Кук

1б

Критерии оценивания: 1 балл

15. На каком материке находится одно из самых влажных мест на Земле Черапунджи?

А. Северная Америка
Б. Южная Америка
В. Австралия
Г. Евразия

0б

Критерии оценивания: 1 балл

Всего 7б

Рекомендации:

Максимальное количество баллов – 15 баллов

Время выполнения заданий – 45 минут

Председатель Чаевы ниже
Члены жюри Рассушина Е.М. Жарова О.Н. Кристофорова Н.В.

Г 0703

Олимпиадные задания для проведения школьного этапа всероссийской олимпиады школьников в 2016 -2017 учебном году по географии в 7 классе

При выполнении заданий этой части выбери один верный вариант ответа, обведи номер выбранного ответа

1. Каков численный масштаб плана, на котором расстояние от автобусной остановки до стадиона, составляющее 750 м, изображено отрезком длиной 3 см.

А. 1: 25
Б. 1: 250
В. 1: 2500
Г. 1: 25 000

1б

Критерии оценивания: 1 балл

2. Определите примерную высоту горы, если известно, что у её подножия температура воздуха составила + 20°С, а на её вершине -16 °С(1 балл)

А. 4 км
Б. 6 км
В. 600 м
Г. 2 км

1б

Критерии оценивания: 1 балл

3.Определите правильно среднесуточную температуру воздуха по следующим данным:
в 6 ч. +10° С; в 12 ч. +15° С; в 18 ч. +13° С; в 20 ч. + 11° С:(1 балл)

А. +11° С
Б. -5° С
В.+12,25° С
Г.+9, 25° С

0б

Критерии оценивания: 1 балл

4. Выберите дату, когда оба полушария Земли освещены одинаково

А.21 марта
Б. 22 июня
В.15 сентября
Г. 1 января

1б

Критерии оценивания: 1 балл

5. Самая длинная река Австралии

А. Муррей
Б. Миссисипи
В. Амазонка
Г. Янцзы

0б

Критерии оценивания: 1 балл

6.Укажите верное утверждение

А. Восточно-Европейская равнина имеет плоскую поверхность
Б. Алтайские горы расположены на материке Евразия
В. Вулкан Ключевская Сопка расположен на Скандинавском полуострове
Г. Гора Казбек – самая высокая вершина Кавказа.

0б

Критерии оценивания: 1 балл

7. Как называется узкая глубокая впадина с крутыми склонами, возникающая в результате действия текучих (дождевых, талых) вод?

А. Котловина
Б. Курган
В. Овраг
Г. Дюна

0б

Критерии оценивания: 1 балл

8.Какое соответствие «горная порода – её тип по происхождению» является верным?

А. Глина – магматическая
Б. Гранит – осадочная
В. Мрамор – метаморфическая
Г. Базальт – осадочная

1б

Критерии оценивания: 1 балл

9.Как называется природная зона с преобладанием травянистой растительности?

А. Смешанный лес
Б. Тайга
В. Степь
Г. Влажные экваториальные леса

0б

Критерии оценивания: 1 балл

10. Самый высокий водопад в мире (1054 метра), названный в честь лётчика, который пролетел над водопадом в 1933 году.

А. Ниагарский
Б. Виктория
В. Анхель
Г. Игуасу

1б

Критерии оценивания: 1 балл

Г0707

11. Где на Земле можно построить дом, чтобы все его окна выходили на север?

0б

А. На экваторе
Б. На северном полюсе
В. На южном полюсе
Г. На северном тропике

Критерии оценивания: 1 балл

12. Самая многоводная река планеты

1б

А. Нил
Б. Амазонка
В. Волга
Г. Миссисипи

Критерии оценивания: 1 балл

13. Какие хищные млекопитающие обитают в Арктике?

1б

А.Пингвины
Б. Морские огурцы
В. Морские леопарды
Г. Белые медведи

Критерии оценивания: 1 балл

14. Кто из европейцев первым проложил морской путь из Европы в Индию, обогнув Африку?

1б

А. Марко Поло
Б. Васко да Гама
В. Афанасий Никитин
Г. Джеймс Кук

Критерии оценивания: 1 балл

15. На каком материке находится одно из самых влажных мест на Земле Черапунджи?

0б

А. Северная Америка
Б. Южная Америка
В. Австралия
Г. Евразия

Критерии оценивания: 1 балл

Рекомендации:

Всего 15б

Максимальное количество баллов – 15 баллов

Время выполнения заданий – 45 минут

Предметник Ромашкина Е.А.
Члены жюри Назарова О.Н.
Крамтадова Б.В.

Г0902

География. 9 класс.
Время выполнения работы – 80 минут

Время выполнения тестового тура – 30 минут

Тестовый тур

1.Какой из перечисленных природных ресурсов относится к группе исчерпаемыхвозобновимых

0б А) энергия ветра
Б) медные руды
В) природный газ
Г) пресная вода *(1 балл)*

2.Установите соответствие между народом и языковой семьей, к которой он относится.

НАРОД	ЯЗЫКОВАЯ СЕМЬЯ
1) татары	А) алтайская
2) адыгейцы	Б) северокавказская
3) Карелы	В) уральско-юкагирская
	Г) индоевропейская

1	2	3
В	Б	А, В

(3 балла) 0 1б 1б

3. В каком из вариантов правильно представлены самые крупные народы России по возрастанию:
А) русские – башкиры – татары – украинцы;
Б) русские – татары – украинцы – башкиры;
0 В) русские – украинцы – татары – башкиры;
Г) русские – татары – башкиры – украинцы*(1 балл)*

4. Установите соответствие между полезным ископаемым и месторождением, к котором производится его добыча

ПОЛЕЗНОЕ ИСКОПАЕМОЕ	МЕСТОРОЖДЕНИЕ
1) Золото	А) Бодайбо
2) Медные руды	Б) Гайское
3) Железные руды	В) Уренгойское
	Г) Коршуновское

1	2	3
Б, А	В	Г

(3балла) 1б 1б 1б

5. Установите соответствие между каждым из субъектов РФ и его центром

1) Республика Коми	А) Кызыл
2) Республика Бурятия	Б) Нарьян-Мар
3) Ненецкий автономный округ	В) Сыктывкар
Г) Улан-Удэ	

1	2	3
В	А Г	Б

(3балла) 1б 1б 1б

6. Выберите регион, в котором представлено наибольшее количество автономных республик:
0б А) Европейский Север;
Б) Волго-Вятский район;
В) Поволжье;
Г) Северный Кавказ.
(1 балл)

7. Крупнейшие месторождения железных руд находятся:
А) в бассейне Печоры
0б Б) в Забайкалье
В) на Среднерусской возвышенности
(1 балл)

8. Найдите исключение из предложенных вариантов, в которых перечислены города - «миллионеры» России:
А) Москва, Санкт-Петербург, Новосибирск, Нижний Новгород;
1б Б) Екатеринбург, Самара, Омск, Челябинск;
В) Пермь, Уфа, Казань, Ростов-на-Дону;
Г) Москва, Нижний Новгород, Екатеринбург, Казань
(1 балл)

9. Подумайте, какой известный физико-географический объект объединяет такие страны как Россия, Туркмения, Иран, Казахстан, Азербайджан:
А) Уральские горы;
1б Б) Кавказские горы;
В) Каспийское море;
Г) Прикаспийская низменность?
(1 балл)

/10б

Аналитический тур

Время выполнения аналитического тура – 50 минут

Задание 1

Какая из республик Российской Федерации является самой северной, самой южной, самой западной, самой восточной?
Самая северная – Якутия (Саха) 1б
Самая южная – Дагестан
Самая западная – Карелия 1б
Самая восточная – Сахалин 1б
Количество баллов — 4

Задание 2.Определите, о каком городе идет речь.

Город находится в 120 км к востоку от порта, способного принимать как речные, так и морские суда, и соединен с ним железной дорогой. Район его размещения богат разнообразными сырьевыми ресурсами: платины, медно-никелевых руд, золота, серебра, угля. При сооружении зданий строителям необходимо было применять специальные технологии, учитывать

0 Якутск

Г0902

специфические природные условия района расположения этого города. Основное занятие коренных жителей этой территории – оленеводство. Лутек.

Количество баллов -1

Задание 3. Найдите логические связи географических объектов в предложенном списке: город, деревня, село, поселок городского типа (ПГТ), кишлак,
аул, хутор, мегаполис.

Выделите самостоятельно группы, в которые можно объединить объекты, и впишите туда название группы объектов и названия объектов, которые вы отнесете к выделенным группам.

Название группы объектов — Объекты

крупн: города, мегаполис; деревня.
Средние: село, поселок городского типа, хутор.
Мелкие: аул, кишлак. 6б

Количество баллов — 6.

Задание 4.

Этот водоем самый глубокий в России, он содержит 1/5 запасов пресных вод планеты (не считая ледников). В него впадает более 300 рек, а вытекает из него только одна. Берега водоема покрыты почти полностью хвойными лесами. По берегам открыты заповедники. В одном из них, открытом в 1916 году, в районе хребта на восточном берегу обитает ценный зверек, имеющий такое же название, что и хребет, полученное по названию реки, впадающий в водоем. Эта же река дала имя северо-восточному ветру. Водоем расположен в зоне активных тектонических движений. Поэтому часто в этом районе бывают землетрясения. В 1862 году в результате одного из них неподалеку от дельты самой крупной реки, впадающей в водоем, погрузился под воду большой участок суши.

В 1920-х годах в поселке, расположенном у истока вытекающей реки, был открыт стационар по изучению водоема.

Что это за водоем? ~~Озеро Байкал~~ ~~Алтайское водохранилище~~. Оз. Байкал 1б

В каких субъектах Российской Федерации он расположен? в Алтайском крае Об

Как называется река, вытекающая из водоема? ~~Нуссон~~ Волга.

Как называется река, давшая название зверьку, хребту и ветру? Как называется этот зверек? Нуссон

У устья какой реки находится погрузившийся объект и как он называется?

Как называется поселок, в котором располагается исследовательский институт?

Количество баллов — 9.

Всего: 21б

Председатель ПК Рассмотрено ЕМ
Члены ПК Назарова О.Н.
жюри Крюмкадова Т.В

Задание 5.

На корабле местное солнечное время 22 ч. 08 мин. 20 октября, в Гринвиче – 1 ч. 13 мин. 21 октября. Определите долготу местонахождения корабля (до минут).

Количество баллов — 3.

Максимальное количество баллов - 37

Г0903

География. 9 класс.
Время выполнения работы – 80 минут

Время выполнения тестового тура – 30 минут

Тестовый тур

1.Какой из перечисленных природных ресурсов относится к группе исчерпаемыхвозобновимых

0б А) энергия ветра
Б) медные руды
В) природный газ
Г) пресная вода *(1 балл)*

2.Установите соответствие между народом и языковой семьей, к которой он относится.

НАРОД	ЯЗЫКОВАЯ СЕМЬЯ
1) татары	А) алтайская
2) адыгейцы	Б) северокавказская
3) Карелы	В) уральско-юкагирская
	Г) индоевропейская

1	2	3
А	Б	В

(3 балла) 1б 1б 1б

3. В каком из вариантов правильно представлены самые крупные народы России по возрастанию:
А) русские – башкиры – татары – украинцы;
1б Б) русские – татары – украинцы – башкиры;
В) русские – украинцы – татары – башкиры;
Г) русские – татары – башкиры – украинцы*(1 балл)*

4. Установите соответствие между полезным ископаемым и месторождением, к котором производится его добыча

ПОЛЕЗНОЕ ИСКОПАЕМОЕ	МЕСТОРОЖДЕНИЕ
1) Золото	А) Бодайбо
2) Медные руды	Б) Гайское
3) Железные руды	В) Уренгойское
	Г) Коршуновское

1	2	3
~~В~~	~~А~~	~~Г~~

(3балла) 0 0 1б

5. Установите соответствие между каждым из субъектов РФ и его центром

1) Республика Коми	А) Кызыл
2) Республика Бурятия	Б) Нарьян-Мар
3) Ненецкий автономный округ	В) Сыктывкар
	Г) Улан-Удэ

1	2	3
В	А	Г

(3балла) 1б 0 0

6. Выберите регион, в котором представлено наибольшее количество автономных республик:
А) Европейский Север;
Б) Волго-Вятский район;
1б В) Поволжье;
Г) Северный Кавказ.
(1 балл)

7. Крупнейшие месторождения железных руд находятся:
А) в бассейне Печоры
Б) в Забайкалье
1б В) на Среднерусской возвышенности
(1 балл)

8. Найдите исключение из предложенных вариантов, в которых перечислены города - «миллионеры» России:
А) Москва, Санкт-Петербург, Новосибирск, Нижний Новгород;
0 Б) Екатеринбург, Самара, Омск, Челябинск;
В) Пермь, Уфа, Казань, Ростов-на-Дону;
Г) Москва, Нижний Новгород, Екатеринбург, Казань
(1 балл)

9. Подумайте, какой известный физико-географический объект объединяет такие страны как Россия, Туркмения, Иран, Казахстан, Азербайджан:
А) Уральские горы;
0 Б) Кавказские горы;
В) Каспийское море;
Г) Прикаспийская низменность? /8б
(1 балл)

Аналитический тур

Время выполнения аналитического тура – 50 минут

Задание 1

Какая из республик Российской Федерации является самой северной, самой южной, самой западной, самой восточной?
Самая северная –
Самая южная – 0
Самая западная –
Самая восточная –
Количество баллов — 4

Задание 2.Определите, о каком городе идет речь.

Город находится в 120 км к востоку от порта, способного принимать как речные, так и морские суда, и соединен с ним железной дорогой. Район его размещения богат разнообразными сырьевыми ресурсами: платины, медно-никелевых руд, золота, серебра, угля. При сооружении зданий строителям необходимо было применять специальные технологии, учитывать

Г1003

21.В каком из высказываний содержится информация о процессе урбанизации?

а) Численность и плотность населения увеличиваются в тех странах и регионах, где наиболее высок естественный прирост населения;

б) Половина населения мира живет в сельской местности, а общее количество сельских населенных пунктов составляет 15-20 млн;

в) В начале XX в. в мире насчитывалось 360 больших городов, к началу XXI в. число больших городов достигло 4 тыс;

г) В наименее развитых странах проживает более 600 млн. человек со среднедушевым ВВП 100 - 300 долл. в год.

22. Какая из перечисленных стран находится в Азии?

а) Нигерия

б) Пакистан

в) Боливия

г) Судан

23. Установите соответствие между страной и ее столицей.

1) Вьетнам	а) Стокгольм
2) Швеция	б) Коломбо
3) ЮАР	в) Ханой
	г) Претория

1-В; 2-А; 3-Г
1б 1б 1б

24.Выберете пару стран, относящихся к наиболее отсталым в мире:

а) Бангладеш и Афганистан;

б) Египет и Марокко;

в) Перу и Чили;

г) Исландия и Греция.

25.Какая из перечисленных городских агломераций является наиболее крупной по численности населения?

а) Варшава

б) Нью-Йорк

в) Лондон

г) Рим

26. Какие острова являются независимым государством?

а) Канарские;

б) Гавайские;

в) Фолклендские;

г) Багамские.

27. Какое государство является одновременно монархией и федерацией?

а) Австрия;

б) Бельгия;

в) Швеция;

г) Великобритания.

28. Город Индии, называемый «Индийским Голливудом»:

а) Мумбаи;

б) Калькутта;

в) Нью-Дели;

г) Ченнаи.

29. Новая Зеландия занимает ведущее место в мире по производству:

а) хлопка;

б) древесины;

в) молочных продуктов;

г) сахарного тростника.

30. В какой стране столица не является крупнейшим городом по численности населения:

а) Великобритания;

б) Марокко;

в) Польша;

г) Перу.

Тест 18б
Всего 35б
Председатель Ф. Ремитько Е.
Члены: Иванова О.Н.

МАКСИМАЛЬНО ВОЗМОЖНОЕ КОЛИЧЕСТВО БАЛЛОВ - 35.

Аналитический раунд

Задание 1

Эта страна-архипелаг по форме правления является конституционной монархией. Однородное по национальному составу население этой страны отличается большой численностью: она входит в первую десятку населения стран мира. Страна обладает очень крупным и самым современным морским торговым флотом, так как около 9/10 используемого сырья и топлива импортируется.

Количество баллов — 3. Японий 3б

Задание 2

«Эта река катит свои воды через всю Сибирь; словно измерив всю необъятную ширь, делит глубоким руслом огромную страну на две равные части. Сказочно хороша река своим величавым течением, природой и живописными городами и селами, горделиво возвышающимися на крутых берегах. С левого берега у реки притоков мало и нет среди них значительных. Все крупные притоки подходят к реке справа. Это самая многоводная река России. Она выносит в океан воды больше, чем все реки Европейской части страны». (По А. Муранову) Волга, Архангельск, Астрахань,

О какой реке идет речь? Назовите известные вам притоки этой реки. Какие крупные города находятся на её берегах и берегах притоков? Какие сооружения и отрасли промышленности возникли на этой реке? АПК, Волжская ГЭС

Полный ответ – 10 баллов (2 балла – за реку, по 0,5 балла за притоки, города, баллы за названные электростанции и отрасли промышленности). 0б

Задание 3 2б 0 2б

Исправьте географические ошибки

Остров Юкатан п-ов; Залив Ютландия страна; Карибское озеро море; Река Гекла город; Гора Меконг река; Город Лабрадор мыс; Страна Тегеран город.

Количество баллов – 14 (2 балла за каждый правильный ответ)

Задание 4

Ни одно полезное ископаемое не будоражило так сильно умы людей, как это. Весть об открытии месторождений распространялась с молниеносной быстротой. Десятки тысяч людей бросали свою обычную жизнь и стекались к местам его добычи. Без всякого снаряжения, с одной киркой и лопатой эти люди днями и ночами трудились на разработке месторождений. Лишьнемногие из них разбогатели по-настоящему, остальные были полностью разорены, но на их место приходили все новые и новые, которых манила перспектива быстрого обогащения.

Как называется это полезное ископаемое? Как называется явление его массовой добычи? В каком веке это явление было особенно распространено? Какие особенности позволяли вести легкую добычу этого полезного ископаемого?

Количество баллов – 4 (1 балл за каждый правильный ответ)

Золото, золотая лихорадка, XVIII век, разность ускорения свободного падения в месте отдыха. 4б

11 класс Г 1003

Тестовый раунд

Каждое задание оценивается в 1 балл.

Задание 12 – по 1 баллу за каждый правильный ответ (итого – 4 балла)

Задание 23 – по 1 баллу за каждый правильный ответ (итого – 3 балла)

1. Название высохших русел рек в пустыне Сахара?

а) вади;
б) крики;
в) узбой;
г) эрг.

0б

2. Какое утверждение является верным?

а) наибольшая амплитуда температур в России зафиксирована в Краснодарском крае;
б) территория России расположена в двух климатических поясах;
в) на всей территории России в течение года преобладает пониженное атмосферное давление;
г) в Якутии самые низкие температуры в Северном полушарии.

1б

3. Какая из стран располагается на разных материках?

а) Россия;
б) Казахстан;
в) Турция;
г) Египет.

1б

4. Количество высотных поясов в Андах:

а) одинаково на всех широтах;
б) больше в умеренных широтах;
в) больше в тропических широтах;
г) больше в экваториальных широтах.

0

5. Самое соленое море, омывающее берега России?

а) Черное;
б) Японское;
в) Балтийское;
г) Азовское.

0

6. Месторождения каких полезных ископаемых есть и на Западно-Сибирской равнине, и на побережье Мексиканского залива?

а) нефти;
б) алмазов и золота;
в) каменного угля;
г) торфа.

1б

7. Заболоченные поймы в дельтах рек, покрытые камышом:

а) фён;
б) бора;
в) плавни;
г) лакколиты.

1б

8. Ильменский заповедник славится в первую очередь:

а) уникальным скоплением минералов;
б) уникальным рельефом;
в) редкой флорой;
г) редкой фауной.

0

9. Какое из утверждений является верным?

а) Верхоянский хребет образовался в кайнозойской складчатости;
б) горы Кавказ образовались в эпоху каледонской складчатости;
в) горы Алтай образовались в эпоху кайнозойской складчатости;
г) горы Урал образовались в эпоху герцинской складчатости.

0

10. В основании Западно-Сибирской равнины лежит:

а) щит;
б) крупная впадина;
в) область древней складчатости;
г) область мезозойской складчатости.

1б

11. Второй по численности народ в России:

а) армяне;
б) башкиры;
в) чуваши;
г) татары.

1б

12. Установите соответствие « порт – море»:

1- Находка 2- Мурманск 3- Калининград 4- Тикси

А- Балтийское Б-Японское В- Баренцево Г-Лаптевых.

1б 1б 1б 1б

1-Б; 2-В; 3-А; 4-Г

13. Взаимосвязанные промышленные комплексы по производству электроэнергии, алюминия и деревообработке сложились в Восточно-Сибирском районе:

а) в Красноярске и Чите;
б) в Чите и Норильске;
в) в Норильске и Братске;
г) в Братске и Красноярске.

0

14. Самый молодой по дате основания город-миллионер России:

а) Пермь;
б) Воронеж;
в) Красноярск;
г) Новосибирск.

0

15. В Нечерноземье выращивают:

а) лен-долгунец;
б) сахарную свеклу;
в) подсолнечник;
г) сою.

1б

16. Регион России, граничащий с тремя зарубежными странами:

а) Псковская область;
б) Брянская область;
в) Ростовская область;
г) Приморский край.

0

17. Специализацией какого наукограда России является ядерная физика:

а) Петергоф;
б) Дубна;
в) Королёв;
г) Мичуринск.

1б

18. Страна табака, рома, сахарного тростника и никеля?

а) Коста-Рика;
б) Гватемала;
в) Ямайка;
г) Куба.

1б

19. Какое из перечисленных государств по форме правления является монархией?

а) Испания
б) Португалия
в) Франция
г) Финляндия

0

20. Для какой из перечисленных стран характерен наибольший приток иммигрантов?

а) Иран
б) Монголия
в) Канада
г) Эфиопия

0

Г1002

21.В каком из высказываний содержится информация о процессе урбанизации?

а) Численность и плотность населения увеличиваются в тех странах и регионах, где наиболее высок естественный прирост населения;

б) Половина населения мира живет в сельской местности, а общее количество сельских населенных пунктов составляет 15-20 млн;

в) В начале XX в. в мире насчитывалось 360 больших городов, к началу XXI в. число больших городов достигло 4 тыс;

г) В наименее развитых странах проживает более 600 млн. человек со среднедушевым ВВП 100 - 300 долл. в год.

1б

22. Какая из перечисленных стран находится в Азии?

а) Нигерия

б) Пакистан

в) Боливия

г) Судан

0

23. Установите соответствие между страной и ее столицей.

1) Вьетнам — а) Стокгольм 1б

2) Швеция — б) Коломбо

3) ЮАР — в) Ханой 1б

г) Претория 1б

24.Выберете пару стран, относящихся к наиболее отсталым в мире:

а) Бангладеш и Афганистан;

б) Египет и Марокко;

в) Перу и Чили;

г) Исландия и Греция.

0

25.Какая из перечисленных городских агломераций является наиболее крупной по численности населения?

а) Варшава

б) Нью-Йорк

в) Лондон

г) Рим

1б

26. Какие острова являются независимым государством?

а) Канарские;

б) Гавайские;

в) Фолклендские;

г) Багамские.

0

27. Какое государство является одновременно монархией и федерацией?

а) Австрия;

б) Бельгия;

в) Швеция;

г) Великобритания.

0

28. Город Индии, называемый «Индийским Голливудом»:

а) Мумбаи;

б) Калькутта;

в) Нью-Дели;

г) Ченнаи.

1б

29. Новая Зеландия занимает ведущее место в мире по производству:

а) хлопка;

б) древесины;

в) молочных продуктов;

г) сахарного тростника.

1б

Тесты 17б.

30. В какой стране столица не является крупнейшим городом по численности населения:

а) Великобритания;

б) Марокко;

в) Польша;

г) Перу.

0

МАКСИМАЛЬНО ВОЗМОЖНОЕ КОЛИЧЕСТВО БАЛЛОВ - 35.

Аналитический раунд

Задание 1

Эта страна-архипелаг по форме правления является конституционной монархией. Однородное по национальному составу население этой страны отличается большой численностью: она входит в первую десятку населения стран мира. Страна обладает очень крупным и самым современным морским торговым флотом, так как около 9/10 используемого сырья и топлива импортируется.

Количество баллов — 3.

0б

Задание 2

«Эта река катит свои воды через всю Сибирь; словно измерив всю необъятную ширь, делит глубоким руслом огромную страну на две равные части. Сказочно хороша река своим величавым течением, природой и живописными городами и селами, горделиво возвышающимися на крутых берегах. С левого берега у реки притоков мало и нет среди них значительных. Все крупные притоки подходят к реке справа. Это самая многоводная река России. Она выносит в океан воды больше, чем все реки Европейской части страны». (По А. Муранову)

О какой реке идет речь? Назовите известные вам притоки этой реки. Какие крупные города находятся на её берегах и берегах притоков? Какие сооружения и отрасли промышленности возникли на этой реке?

Полный ответ – 10 баллов (2 балла – за реку, по 0,5 балла за притоки, города, баллы за названные электростанции и отрасли промышленности).

Енисей 2б

Задание 3

Исправьте географические ошибки

Остров Юкатан _____; Залив Ютландия _____; Карибское озеро _____;

Река Гекла _____; Гора Меконг _____; Город Лабрадор _____; Страна Тегеран _____

Количество баллов – 14 (2 балла за каждый правильный ответ)

0

Задание 4

Ни одно полезное ископаемое не будоражило так сильно умы людей, как это. Весть об открытии месторождений распространялась с молниеносной быстротой. Десятки тысяч людей бросали свою обычную жизнь и стекались к местам его добычи. Без всякого снаряжения, с одной киркой и лопатой эти люди днями и ночами трудились на разработке месторождений. Лишьнемногие из них разбогатели по-настоящему, остальные были полностью разорены, но на их место приходили все новые и новые, которых манила перспектива быстрого обогащения.

Как называется это полезное ископаемое? Как называется явление его массовой добычи? В каком веке это явление было особенно распространено? Какие особенности позволяли вести легкую добычу этого полезного ископаемого?

Количество баллов – 4 (1 балл за каждый правильный ответ)

Золото, Золотая лихорадка, 17 век.

2б

Всего 21б

Председатель: Дмитриева Е.М.

Члены: Назарова О.Н.

11 класс Г1002

Тестовый раунд

Каждое задание оценивается в 1 балл.

Задание 12 – по 1 баллу за каждый правильный ответ (итого – 4 балла)

Задание 23 – по 1 баллу за каждый правильный ответ (итого – 3 балла)

1. Название высохших русел рек в пустыне Сахара?

15

а) вади;
б) крики;
в) узбой;
г) эрг.

2. Какое утверждение является верным?

а) наибольшая амплитуда температур в России зафиксирована в Краснодарском крае;
б) территория России расположена в двух климатических поясах;
в) на всей территории России в течение года преобладает пониженное атмосферное давление;
г) в Якутии самые низкие температуры в Северном полушарии.

15

3. Какая из стран располагается на разных материках?

0

а) Россия;
б) Казахстан;
в) Турция;
г) Египет.

4. Количество высотных поясов в Андах:

15

а) одинаково на всех широтах;
б) больше в умеренных широтах;
в) больше в тропических широтах;
г) больше в экваториальных широтах.

5. Самое соленое море, омывающее берега России?

0

а) Черное;
б) Японское;
в) Балтийское;
г) Азовское.

6. Месторождения каких полезных ископаемых есть и на Западно-Сибирской равнине, и на побережье Мексиканского залива?

0

а) нефти;
б) алмазов и золота;
в) каменного угля;
г) торфа.

7. Заболоченные поймы в дельтах рек, покрытые камышом:

15

а) фён;
б) бора;
в) плавни;
г) лакколиты.

8. Ильменский заповедник славится в первую очередь:

0

а) уникальным скоплением минералов;
б) уникальным рельефом;
в) редкой флорой;
г) редкой фауной.

9. Какое из утверждений является верным?

0

а) Верхоянский хребет образовался в кайнозойской складчатости;
б) горы Кавказ образовались в эпоху каледонской складчатости;
в) горы Алтай образовались в эпоху кайнозойской складчатости;
г) горы Урал образовались в эпоху герцинской складчатости.

10. В основании Западно-Сибирской равнины лежит:

0

а) щит;
в) область древней складчатости;
г) область мезозойской складчатости.

11. Второй по численности народ в России:

0

а) армяне;
б) башкиры;
в) чуваши;
г) татары.

0 1

12. Установите соответствие « порт – море»:

1- Находка 2- Мурманск 3- Калининград 4- Тикси

А- Балтийское Б-Японское В- Баренцево Г-Лаптевых.

1-Г 2-В 3-А 4-Б 0

13. Взаимосвязанные промышленные комплексы по производству электроэнергии, алюминия и деревообработке сложились в Восточно-Сибирском районе:

15

а) в Красноярске и Чите;
б) в Чите и Норильске;
в) в Норильске и Братске;
г) в Братске и Красноярске.

14. Самый молодой по дате основания город-миллионер России:

15

а) Пермь;
б) Воронеж;
в) Красноярск;
г) Новосибирск.

15. В Нечерноземье выращивают:

0

а) лен-долгунец;
б) сахарную свеклу;
в) подсолнечник;
г) сою.

16. Регион России, граничащий с тремя зарубежными странами:

0

а) Псковская область;
б) Брянская область;
в) Ростовская область;
г) Приморский край.

17. Специализацией какого наукограда России является ядерная физика:

0

а) Петергоф;
б) Дубна;
в) Королёв;
г) Мичуринск.

18. Страна табака, рома, сахарного тростника и никеля?

15

а) Коста-Рика;
б) Гватемала;
в) Ямайка;
г) Куба.

19. Какое из перечисленных государств по форме правления является монархией?

15

а) Испания
б) Португалия
в) Франция
г) Финляндия

20. Для какой из перечисленных стран характерен наибольший приток иммигрантов?

0

а) Иран
б) Монголия
в) Канада

Г0907

специфические природные условия района расположения этого города.
Основное занятие коренных жителей этой территории – оленеводство.

Количество баллов -1

Задание 3.Найдите логические связи географических объектов в предложенном списке: город, деревня, село, поселок городского типа (ПГТ), кишлак,
аул, хутор, мегаполис.

6 б

Выделите самостоятельно группы, в которые можно объединить объекты, и впишите туда название группы объектов и названия объектов, которые вы отнесете к выделенным группам.

Название группы объектов Объекты

Количество баллов — 6.

Задание 4.

Этот водоем самый глубокий в России, он содержит 1/5 запасов пресных вод планеты (не считая ледников). В него впадает более 300 рек, а вытекает из него только одна. Берега водоема покрыты почти полностью хвойными лесами. По берегам открыты заповедники. В одном из них, открытом в 1916 году, в районе хребта на восточном берегу обитает ценный зверек, имеющий такое же название, что и хребет, полученное по названию реки, впадающий в водоем. Эта же река дала имя северо-восточному ветру. Водоем расположен в зоне активных тектонических движений. Поэтому часто в этом районе бывают землетрясения. В 1862 году в результате одного из них неподалеку от дельты самой крупной реки, впадающей в водоем, погрузился под воду большой участок суши.

В 1920-х годах в поселке, расположенном у истока вытекающей реки, был открыт стационар по изучению водоема.

Что это за водоем?

В каких субъектах Российской Федерации он расположен?

Как называется река, вытекающая из водоема?

Как называется река, давшая название зверьку, хребту и ветру? Как называется этот зверек?

У устья какой реки находится погрузившийся объект и как он называется?

Как называется поселок, в котором располагается исследовательский институт?

Количество баллов — 9.

Задание 5.

На корабле местное солнечное время 22 ч. 08 мин. 20 октября, в Гринвиче – 1 ч. 13 мин. 21 октября. Определите долготу местонахождения корабля (до минут).

Количество баллов — 3.

Максимальное количество баллов - 37

Всего: 20 б

Председатель Чинт жюри

Члены жюри Ремишко Е.А.
Назарова О.Н.
Кривчарович Н.В.

Г 0907

География. 9 класс.
Время выполнения работы – 80 минут

Время выполнения тестового тура – 30 минут

Тестовый тур

1.Какой из перечисленных природных ресурсов относится к группе исчерпаемыхвозобновимых

1б

А) энергия ветра
Б) медные руды
В) природный газ
Г) пресная вода *(1 балл)*

2.Установите соответствие между народом и языковой семьей, к которой он относится.

НАРОД	ЯЗЫКОВАЯ СЕМЬЯ
1) татары	А) алтайская
2) адыгейцы	Б) северокавказская
3) Карелы	В) уральско-юкагирская
	Г) индоевропейская

1	2	3
А	В	Б

(3 балла) 1б 1б 1б

3. В каком из вариантов правильно представлены самые крупные народы России по возрастанию:

0б

А) русские – башкиры – татары – украинцы;
Б) русские – татары – украинцы – башкиры;
В) русские – украинцы – татары – башкиры;
Г) русские – татары – башкиры – украинцы*(1 балл)*

4. Установите соответствие между полезным ископаемым и месторождением, к котором производится его добыча

ПОЛЕЗНОЕ ИСКОПАЕМОЕ	МЕСТОРОЖДЕНИЕ
1) Золото	А) Бодайбо
2) Медные руды	Б) Гайское
3) Железные руды	В) Уренгойское
	Г) Коршуновское

1	2	3
А	Б	В

(3балла) 1б 1б 0б

5. Установите соответствие между каждым из субъектов РФ и его центром

1) Республика Коми	А) Кызыл
2) Республика Бурятия	Б) Нарьян-Мар
3) Ненецкий автономный округ	В) Сыктывкар
	Г) Улан-Удэ

1	2	3
В	Г	Б

(3балла) 1б 1б 1б

6. Выберите регион, в котором представлено наибольшее количество автономных республик:

1б

А) Европейский Север;
Б) Волго-Вятский район;
В) Поволжье;
Г) Северный Кавказ.
(1 балл)

7. Крупнейшие месторождения железных руд находятся:

0б

А) в бассейне Печоры
Б) в Забайкалье
В) на Среднерусской возвышенности
(1 балл)

8. Найдите исключение из предложенных вариантов, в которых перечислены города - «миллионеры» России:

1б

А) Москва, Санкт-Петербург, Новосибирск, Нижний Новгород;
Б) Екатеринбург, Самара, Омск, Челябинск;
В) Пермь, Уфа, Казань, Ростов-на-Дону;
Г) Москва, Нижний Новгород, Екатеринбург, Казань
(1 балл)

9. Подумайте, какой известный физико-географический объект объединяет такие страны как Россия, Туркмения, Иран, Казахстан, Азербайджан:

1б

А) Уральские горы;
Б) Кавказские горы;
В) Каспийское море;
Г) Прикаспийская низменность?
(1 балл)

12б

Аналитический тур

Время выполнения аналитического тура – 50 минут

Задание 1

Какая из республик Российской Федерации является самой северной, самой южной, самой западной, самой восточной?

Самая северная – Республика Карелия 0
Самая южная – Республика Коми 0
Самая западная – Республика Бурятия 1б
Самая восточная – Республика Саха 1б

Количество баллов — 4

Задание 2.Определите, о каком городе идет речь.

Город находится в 120 км к востоку от порта, способного принимать как речные, так и морские суда, и соединен с ним железной дорогой. Район его размещения богат разнообразными сырьевыми ресурсами: платины, медно-никелевых руд, золота, серебра, угля. При сооружении зданий строителям необходимо было применять специальные технологии, учитывать

Г 0903

специфические природные условия района расположения этого города. Основное занятие коренных жителей этой территории – оленеводство. Новосибирск 0

Количество баллов -1

Задание 3.Найдите логические связи географических объектов в предложенном списке: город, деревня, село, поселок городского типа (ПГТ), кишлак,
аул, хутор, мегаполис.

Выделите самостоятельно группы, в которые можно объединить объекты, и впишите туда название группы объектов и названия объектов, которые вы отнесете к выделенным группам.

Название группы объектов: городская местность Объекты: город, мегаполис, ПГТ 6б
сельская местность деревня, село, ПГТ, кишлак, аул, хутор.

Количество баллов — 6.

Задание 4.

Этот водоем самый глубокий в России, он содержит 1/5 запасов пресных вод планеты (не считая ледников). В него впадает более 300 рек, а вытекает из него только одна. Берега водоема покрыты почти полностью хвойными лесами. По берегам открыты заповедники. В одном из них, открытом в 1916 году, в районе хребта на восточном берегу обитает ценный зверек, имеющий такое же название, что и хребет, полученное по названию реки, впадающий в водоем. Эта же река дала имя северо-восточному ветру. Водоем расположен в зоне активных тектонических движений. Поэтому часто в этом районе бывают землетрясения. В 1862 году в результате одного из них неподалеку от дельты самой крупной реки, впадающей в водоем, погрузился под воду большой участок суши.

В 1920-х годах в поселке, расположенном у истока вытекающей реки, был открыт стационар по изучению водоема.

Что это за водоем? о. Байкал 1б

В каких субъектах Российской Федерации он расположен?

Как называется река, вытекающая из водоема?

Как называется река, давшая название зверьку, хребту и ветру? Как называется этот зверек?

У устья какой реки находится погрузившийся объект и как он называется?

Как называется поселок, в котором располагается исследовательский институт?

Количество баллов — 9.

Задание 5.

На корабле местное солнечное время 22 ч. 08 мин. 20 октября, в Гринвиче – 1 ч. 13 мин. 21 октября. Определите долготу местонахождения корабля (до минут).

Количество баллов — 3.

Максимальное количество баллов - 37

Всего: 15 б
Председатель: Решетько Е.М.
Члены жюри: Назарова О.Н.
Кристофорович Т.В.

11 класс Г1004

Тестовый раунд

Каждое задание оценивается в 1 балл.

Задание 12 – по 1 баллу за каждый правильный ответ (итого – 4 балла)

Задание 23 – по 1 баллу за каждый правильный ответ (итого – 3 балла)

1. Название высохших русел рек в пустыне Сахара?

а) вади;
б) крики;
в) узбой;
г) эрг.

2. Какое утверждение является верным?

а) наибольшая амплитуда температур в России зафиксирована в Краснодарском крае;
б) территория России расположена в двух климатических поясах;
в) на всей территории России в течение года преобладает пониженное атмосферное давление;
г) в Якутии самые низкие температуры в Северном полушарии.

3. Какая из стран располагается на разных материках?

а) Россия;
б) Казахстан;
в) Турция;
г) Египет.

4. Количество высотных поясов в Андах:

а) одинаково на всех широтах;
б) больше в умеренных широтах;
в) больше в тропических широтах;
г) больше в экваториальных широтах.

5. Самое соленое море, омывающее берега России?

а) Черное;
б) Японское;
в) Балтийское;
г) Азовское.

6. Месторождения каких полезных ископаемых есть и на Западно-Сибирской равнине, и на побережье Мексиканского залива?

а) нефти;
б) алмазов и золота;
в) каменного угля;
г) торфа.

7. Заболоченные поймы в дельтах рек, покрытые камышом:

а) фён;
б) бора;
в) плавни;
г) лакколиты.

8. Ильменский заповедник славится в первую очередь:

а) уникальным скоплением минералов;
б) уникальным рельефом;
в) редкой флорой;
г) редкой фауной.

9. Какое из утверждений является верным?

а) Верхоянский хребет образовался в кайнозойской складчатости;
б) горы Кавказ образовались в эпоху каледонской складчатости;
в) горы Алтай образовались в эпоху кайнозойской складчатости;
г) горы Урал образовались в эпоху герцинской складчатости.

10. В основании Западно-Сибирской равнины лежит:

а) щит;
б) крики;
в) область древней складчатости;
г) область мезозойской складчатости.

11. Второй по численности народ в России:

а) армяне;
б) башкиры;
в) чуваши;
г) татары.

12. Установите соответствие « порт – море»:

1- Находка 2- Мурманск 3- Калининград 4- Тикси

А- Балтийское Б-Японское В- Баренцево Г-Лаптевых.

13. Взаимосвязанные промышленные комплексы по производству электроэнергии, алюминия и деревообработке сложились в Восточно-Сибирском районе:

а) в Красноярске и Чите;
б) в Чите и Норильске;
в) в Норильске и Братске;
г) в Братске и Красноярске.

14. Самый молодой по дате основания город-миллионер России:

а) Пермь;
б) Воронеж;
в) Красноярск;
г) Новосибирск.

15. В Нечерноземье выращивают:

а) лен-долгунец;
б) сахарную свеклу;
в) подсолнечник;
г) сою.

16. Регион России, граничащий с тремя зарубежными странами:

а) Псковская область;
б) Брянская область;
в) Ростовская область;
г) Приморский край.

17. Специализацией какого наукограда России является ядерная физика:

а) Петергоф;
б) Дубна;
в) Королёв;
г) Мичуринск.

18. Страна табака, рома, сахарного тростника и никеля?

а) Коста-Рика;
б) Гватемала;
в) Ямайка;
г) Куба.

19. Какое из перечисленных государств по форме правления является монархией?

а) Испания
б) Португалия
в) Франция
г) Финляндия

20. Для какой из перечисленных стран характерен наибольший приток иммигрантов?

а) Иран
б) Монголия
в) Канада

Г 1004

21.В каком из высказываний содержится информация о процессе урбанизации?

0

а) Численность и плотность населения увеличиваются в тех странах и регионах, где наиболее высок естественный прирост населения;
б) Половина населения мира живет в сельской местности, а общее количество сельских населенных пунктов составляет 15-20 млн;
в) В начале XX в. в мире насчитывалось 360 больших городов, к началу XXI в. число больших городов достигло 4 тыс;
г) В наименее развитых странах проживает более 600 млн. человек со среднедушевым ВВП 100 - 300 долл. в год.

22. Какая из перечисленных стран находится в Азии?

0

а) Нигерия
б) Пакистан
в) Боливия
г) Судан

23. Установите соответствие между страной и ее столицей.

0
1б

1) Вьетнам б	а) Стокгольм
2) Швеция а	б) Коломбо
3) ЮАР г	в) Ханой
	г) Претория

24.Выберете пару стран, относящихся к наиболее отсталым в мире:

1

а) Бангладеш и Афганистан;
б) Египет и Марокко;
в) Перу и Чили;
г) Исландия и Греция.

25.Какая из перечисленных городских агломераций является наиболее крупной по численности населения?

0

а) Варшава
б) Нью-Йорк
в) Лондон
г) Рим

26. Какие острова являются независимым государством?

0

а) Канарские;
б) Гавайские;
в) Фолклендские;
г) Багамские.

27. Какое государство является одновременно монархией и федерацией?

0

а) Австрия;
б) Бельгия;
в) Швеция;
г) Великобритания.

28. Город Индии, называемый «Индийским Голливудом»:

1б

а) Мумбаи;
б) Калькутта;
в) Нью-Дели;
г) Ченнаи.

29. Новая Зеландия занимает ведущее место в мире по производству:

0

а) хлопка;
б) древесины;
в) молочных продуктов;
г) сахарного тростника.

30. В какой стране столица не является крупнейшим городом по численности населения:

0

а) Великобритания;
б) Марокко;
в) Польша;
г) Перу.

МАКСИМАЛЬНО ВОЗМОЖНОЕ КОЛИЧЕСТВО БАЛЛОВ - 35.

Тест 12б.

Аналитический раунд

Задание 1

Эта страна-архипелаг по форме правления является конституционной монархией. Однородное по национальному составу население этой страны отличается большой численностью: она входит в первую десятку населения стран мира. Страна обладает очень крупным и самым современным морским торговым флотом, так как около 9/10 используемого сырья и топлива импортируется.

Количество баллов — 3.

0б

Задание 2

«Эта река катит свои воды через всю Сибирь; словно измерив всю необъятную ширь, делит глубоким руслом огромную страну на две равные части. Сказочно хороша река своим величавым течением, природой и живописными городами и селами, горделиво возвышающимися на крутых берегах. С левого берега у реки притоков мало и нет среди них значительных. Все крупные притоки подходят к реке справа. Это самая многоводная река России. Она выносит в океан воды больше, чем все реки Европейской части страны». (По А. Муранову)

О какой реке идет речь? Назовите известные вам притоки этой реки. Какие крупные города находятся на её берегах и берегах притоков? Какие сооружения и отрасли промышленности возникли на этой реке?

Полный ответ – 10 баллов (2 балла – за реку, по 0,5 балла за притоки, города, баллы за названные электростанции и отрасли промышленности).

1- Волга; Камышинка (приток); города - Волгоград, Камышин.

0б

Задание 3

Исправьте географические ошибки

Остров Юкатан Река (0); Залив Ютландия остров (0); Карибское озеро море (2б); Река Гекла гора (0); Гора Меконг река (2б); Город Лабрадор остров (0); Страна Тегеран город (2б)

Количество баллов – 14 (2 балла за каждый правильный ответ)

Задание 4

Ни одно полезное ископаемое не будоражило так сильно умы людей, как это. Весть об открытии месторождений распространялась с молниеносной быстротой. Десятки тысяч людей бросали свою обычную жизнь и стекались к местам его добычи. Без всякого снаряжения, с одной киркой и лопатой эти люди днями и ночами трудились на разработке месторождений. Лишьнемногие из них разбогатели по-настоящему, остальные были полностью разорены, но на их место приходили все новые и новые, которых манила перспектива быстрого обогащения.

Как называется это полезное ископаемое? Как называется явление его массовой добычи? В каком веке это явление было особенно распространено? Какие особенности позволяли вести легкую добычу этого полезного ископаемого? 3б

1- Золото

Количество баллов – 4 (1 балл за каждый правильный ответ)

2- Золотая лихорадка. Всего: 21б.

3- ~~XVIII~~ в. Предсеадатель Ф. Кемпитько

Члены жюри: Назарова О.Н. Кимиджанович Т.В

11 класс Г1006

Тестовый раунд

Каждое задание оценивается в 1 балл.

Задание 12 – по 1 баллу за каждый правильный ответ (итого – 4 балла)

Задание 23 – по 1 баллу за каждый правильный ответ (итого – 3 балла)

1. Название высохших русел рек в пустыне Сахара?

а) вади;
б) крики;
в) узбой;
г) эрг.

15

2. Какое утверждение является верным?

а) наибольшая амплитуда температур в России зафиксирована в Краснодарском крае;
б) территория России расположена в двух климатических поясах;
в) на всей территории России в течение года преобладает пониженное атмосферное давление;
г) в Якутии самые низкие температуры в Северном полушарии.

0

3. Какая из стран располагается на разных материках?

а) Россия;
б) Казахстан;
в) Турция;
г) Египет.

0

4. Количество высотных поясов в Андах:

а) одинаково на всех широтах;
б) больше в умеренных широтах;
в) больше в тропических широтах;
г) больше в экваториальных широтах.

0

5. Самое соленое море, омывающее берега России?

а) Черное;
б) Японское;
в) Балтийское;
г) Азовское.

0

6. Месторождения каких полезных ископаемых есть и на Западно-Сибирской равнине, и на побережье Мексиканского залива?

а) нефти;
б) алмазов и золота;
в) каменного угля;
г) торфа.

15

7. Заболоченные поймы в дельтах рек, покрытые камышом:

а) фён;
б) бора;
в) плавни;
г) лакколиты.

15

8. Ильменский заповедник славится в первую очередь:

а) уникальным скоплением минералов;
б) уникальным рельефом;
в) редкой флорой;
г) редкой фауной.

15

9. Какое из утверждений является верным?

а) Верхоянский хребет образовался в кайнозойской складчатости;
б) горы Кавказ образовались в эпоху каледонской складчатости;
в) горы Алтай образовались в эпоху кайнозойской складчатости;
г) горы Урал образовались в эпоху герцинской складчатости.

15

10. В основании Западно-Сибирской равнины лежит:

а) щит;
б) область древней складчатости;
в) область мезозойской складчатости.
г) область мезозойской складчатости.

11. Второй по численности народ в России:

а) армяне;
б) башкиры;
в) чуваши;
г) татары.

15

12. Установите соответствие « порт – море»:

1- Находка 2- Мурманск 3- Калининград 4- Тикси

А- Балтийское Б-Японское В- Баренцево Г-Лаптевых.

15 15 15 15

А-3 Б-1 В-2 Г-4

13. Взаимосвязанные промышленные комплексы по производству электроэнергии, алюминия и деревообработке сложились в Восточно-Сибирском районе:

а) в Красноярске и Чите;
б) в Чите и Норильске;
в) в Норильске и Братске;
г) в Братске и Красноярске.

0

14. Самый молодой по дате основания город-миллионер России:

а) Пермь;
б) Воронеж;
в) Красноярск;
г) Новосибирск.

0

15. В Нечерноземье выращивают:

а) лен-долгунец;
б) сахарную свеклу;
в) подсолнечник;
г) сою.

0

16. Регион России, граничащий с тремя зарубежными странами:

а) Псковская область;
б) Брянская область;
в) Ростовская область;
г) Приморский край.

0

17. Специализацией какого наукограда России является ядерная физика:

а) Петергоф;
б) Дубна;
в) Королёв;
г) Мичуринск.

0

18. Страна табака, рома, сахарного тростника и никеля?

а) Коста-Рика;
б) Гватемала;
в) Ямайка;
г) Куба.

15

19. Какое из перечисленных государств по форме правления является монархией?

а) Испания
б) Португалия
в) Франция
г) Финляндия

15

20. Для какой из перечисленных стран характерен наибольший приток иммигрантов?

а) Иран
б) Монголия
в) Канада

0

Г1006

21.В каком из высказываний содержится информация о процессе урбанизации?

а) Численность и плотность населения увеличиваются в тех странах и регионах, где наиболее высок естественный прирост населения;

б) Половина населения мира живет в сельской местности, а общее количество сельских населенных пунктов составляет 15-20 млн;

в) В начале XX в. в мире насчитывалось 360 больших городов, к началу XXI в. число больших городов достигло 4 тыс;

г) В наименее развитых странах проживает более 600 млн. человек со среднедушевым ВВП 100 - 300 долл. в год.

1б

22. Какая из перечисленных стран находится в Азии?

а) Нигерия

б) Пакистан

в) Боливия

г) Судан

1б

23. Установите соответствие между страной и ее столицей.

1) Вьетнам	а) Стокгольм
2) Швеция	б) Коломбо
3) ЮАР	в) Ханой
	г) Претория

1-В 2-а 3-Б

1б 1б 1б

24.Выберете пару стран, относящихся к наиболее отсталым в мире:

а) Бангладеш и Афганистан;

б) Египет и Марокко;

в) Перу и Чили;

г) Исландия и Греция.

1б

25.Какая из перечисленных городских агломераций является наиболее крупной по численности населения?

а) Варшава

б) Нью-Йорк

в) Лондон

г) Рим

1б

26. Какие острова являются независимым государством?

а) Канарские;

б) Гавайские;

в) Фолклендские;

г) Багамские.

0

27. Какое государство является одновременно монархией и федерацией?

а) Австрия;

б) Бельгия;

в) Швеция;

г) Великобритания.

0

28. Город Индии, называемый «Индийским Голливудом»:

а) Мумбаи;

б) Калькутта;

в) Нью-Дели;

г) Ченнаи.

0

29. Новая Зеландия занимает ведущее место в мире по производству:

Тесли 21б

а) хлопка;

б) древесины;

в) молочных продуктов;

г) сахарного тростника.

0

30. В какой стране столица не является крупнейшим городом по численности населения:

Всего: 33б

Предсерчилов

Решетько Е.Е.

Нарарко О.Н.

Чистяк Ирина

а) Великобритания;

б) Марокко;

в) Польша;

г) Перу.

1б

МАКСИМАЛЬНО ВОЗМОЖНОЕ КОЛИЧЕСТВО БАЛЛОВ - 35.

Аналитический раунд

Задание 1

Эта страна-архипелаг по форме правления является конституционной монархией. Однородное по национальному составу население этой страны отличается большой численностью: она входит в первую десятку населения стран мира. Страна обладает очень крупным и самым современным морским торговым флотом, так как около 9/10 используемого сырья и топлива импортируется.

Количество баллов — 3.

~~Китай~~ Япония 3б

Задание 2

«Эта река катит свои воды через всю Сибирь; словно измерив всю необъятную ширь, делит глубоким руслом огромную страну на две равные части. Сказочно хороша река своим величавым течением, природой и живописными городами и селами, горделиво возвышающимися на крутых берегах. С левого берега у реки притоков мало и нет среди них значительных. Все крупные притоки подходят к реке справа. Это самая многоводная река России. Она выносит в океан воды больше, чем все реки Европейской части страны». (По А. Муранову)

О какой реке идет речь? Назовите известные вам притоки этой реки. Какие крупные города находятся на её берегах и берегах притоков? Какие сооружения и отрасли промышленности возникли на этой реке?

Полный ответ – 10 баллов (2 балла – за реку, по 0,5 балла за притоки, города, баллы за названные электростанции и отрасли промышленности).

Енисей 2б

Задание 3

Исправьте географические ошибки

~~Остров~~ Юкатан Город 0; ~~Залив~~ Ютландия Остров 0; Карибское ~~озеро~~ море; ~~Река~~ Гекла озеро; ~~Гора~~ Меконг Город 0; ~~Город~~ Лабрадор Гора 0; ~~Страна~~ Тегеран Город 2б

2б

Количество баллов – 14 (2 балла за каждый правильный ответ)

Задание 4

Ни одно полезное ископаемое не будоражило так сильно умы людей, как это. Весть об открытии месторождений распространялась с молниеносной быстротой. Десятки тысяч людей бросали свою обычную жизнь и стекались к местам его добычи. Без всякого снаряжения, с одной киркой и лопатой эти люди днями и ночами трудились на разработке месторождений. Лишьнемногие из них разбогатели по-настоящему, остальные были полностью разорены, но на их место приходили все новые и новые, которых манила перспектива быстрого обогащения.

Как называется это полезное ископаемое? Как называется явление его массовой добычи? В каком веке это явление было особенно распространено? Какие особенности позволяли вести легкую добычу этого полезного ископаемого?

Количество баллов – 4 (1 балл за каждый правильный ответ)

Золото. Золотая лихорадка. XVII. Оно не глубоко находилось в шахтах и являлся мягким метал-лом. 3б

11 класс Г1101

Тестовый раунд

Каждое задание оценивается в 1 балл.

Задание 12 – по 1 баллу за каждый правильный ответ (итого – 4 балла)

Задание 23 – по 1 баллу за каждый правильный ответ (итого – 3 балла)

1. Название высохших русел рек в пустыне Сахара?

+ а) вади;
б) крики;
+ в) узбой;
г) эрг.

1б

2. Какое утверждение является верным?

а) наибольшая амплитуда температур в России зафиксирована в Краснодарском крае;
б) территория России расположена в двух климатических поясах;
в) на всей территории России в течение года преобладает пониженное атмосферное давление;
+ г) в Якутии самые низкие температуры в Северном полушарии.

1б

3. Какая из стран располагается на разных материках?

а) Россия;
б) Казахстан;
+ в) Турция;
г) Египет.

0

4. Количество высотных поясов в Андах:

+ а) одинаково на всех широтах;
б) больше в умеренных широтах;
в) больше в тропических широтах;
г) больше в экваториальных широтах.

0

5. Самое соленое море, омывающее берега России?

а) Черное;
б) Японское;
+ в) Балтийское;
г) Азовское.

0

6. Месторождения каких полезных ископаемых есть и на Западно-Сибирской равнине, и на побережье Мексиканского залива?

+ а) нефти;
б) алмазов и золота;
в) каменного угля;
г) торфа.

1б

7. Заболоченные поймы в дельтах рек, покрытые камышом:

а) фён;
б) бора;
+ в) плавни;
г) лакколиты.

1б

8. Ильменский заповедник славится в первую очередь:

а) уникальным скоплением минералов;
+ б) уникальным рельефом;
в) редкой флорой;
г) редкой фауной.

0

9. Какое из утверждений является верным?

а) Верхоянский хребет образовался в кайнозойской складчатости;
б) горы Кавказ образовались в эпоху каледонской складчатости;
+ в) горы Алтай образовались в эпоху кайнозойской складчатости;
г) горы Урал образовались в эпоху герцинской складчатости.

0

10. В основании Западно-Сибирской равнины лежит:

а) щит;
в) область древней складчатости;
г) область мезозойской складчатости.

1б

11. Второй по численности народ в России:

+ а) армяне;
б) башкиры;
в) чуваши;
г) татары.

0

12. Установите соответствие « порт – море»:

1- Находка 2- Мурманск 3- Калининград 4- Тикси
А- Балтийское Б-Японское В- Баренцево Г-Лаптевых.

А Б В Г
3 1 2 4

4б

13. Взаимосвязанные промышленные комплексы по производству электроэнергии, алюминия и деревообработке сложились в Восточно-Сибирском районе:

а) в Красноярске и Чите;
б) в Чите и Норильске;
+ в) в Норильске и Братске;
г) в Братске и Красноярске.

0

14. Самый молодой по дате основания город-миллионер России:

а) Пермь;
+ б) Воронеж;
в) Красноярск;
г) Новосибирск.

0

15. В Нечерноземье выращивают:

а) лен-долгунец;
б) сахарную свеклу;
в) подсолнечник;
+ г) сою.

0

16. Регион России, граничащий с тремя зарубежными странами:

+ а) Псковская область;
б) Брянская область;
в) Ростовская область;
г) Приморский край.

1б

17. Специализацией какого наукограда России является ядерная физика:

а) Петергоф;
б) Дубна;
в) Королёв;
+ г) Мичуринск.

0

18. Страна табака, рома, сахарного тростника и никеля?

а) Коста-Рика;
б) Гватемала;
в) Ямайка;
+ г) Куба.

1б

19. Какое из перечисленных государств по форме правления является монархией?

а) Испания
б) Португалия
в) Франция
+ г) Финляндия

0

20. Для какой из перечисленных стран характерен наибольший приток иммигрантов?

а) Иран
б) Монголия
+ в) Канада
г) Эфиопия

1б

Г1101

21.В каком из высказываний содержится информация о процессе урбанизации?

а) Численность и плотность населения увеличиваются в тех странах и регионах, где наиболее высок естественный прирост населения;

б) Половина населения мира живет в сельской местности, а общее количество сельских населенных пунктов составляет 15-20 млн;

+ в) В начале XX в. в мире насчитывалось 360 больших городов, к началу XXI в. число больших городов достигло 4 тыс;

г) В наименее развитых странах проживает более 600 млн. человек со среднедушевым ВВП 100 - 300 долл. в год.

1б

22. Какая из перечисленных стран находится в Азии?

а) Нигерия

+ б) Пакистан

в) Боливия

г) Судан

1б

23. Установите соответствие между страной и ее столицей.

1) Вьетнам а	а) Стокгольм
2) Швеция б	б) Коломбо
3) ЮАР в	в) Ханой
	г) Претория

1б

24.Выберете пару стран, относящихся к наиболее отсталым в мире:

+ а) Бангладеш и Афганистан;

б) Египет и Марокко;

в) Перу и Чили;

г) Исландия и Греция.

1б

25.Какая из перечисленных городских агломераций является наиболее крупной по численности населения?

а) Варшава

+ б) Нью-Йорк

в) Лондон

г) Рим

1б

26. Какие острова являются независимым государством?

+ а) Канарские;

б) Гавайские;

в) Фолклендские;

г) Багамские.

0

27. Какое государство является одновременно монархией и федерацией?

а) Австрия;

б) Бельгия;

в) Швеция;

+ г) Великобритания.

0

28. Город Индии, называемый «Индийским Голливудом»:

а) Мумбаи;

б) Калькутта;

+ в) Нью-Дели;

г) Ченнаи.

0

29. Новая Зеландия занимает ведущее место в мире по производству:

+ а) хлопка;

б) древесины;

в) молочных продуктов;

г) сахарного тростника.

0

Всего: 17б за тест

Итого: 28б

30. В какой стране столица не является крупнейшим городом по численности населения:

+ а) Великобритания;

Ислам

Федерация

Ремитон Е.Л. Назарова О.Н.

в) Польша;

г) Перу.

МАКСИМАЛЬНО ВОЗМОЖНОЕ КОЛИЧЕСТВО БАЛЛОВ - 35.

Аналитический раунд

Задание 1

Эта страна-архипелаг по форме правления является конституционной монархией. Однородное по национальному составу население этой страны отличается большой численностью: она входит в первую десятку населения стран мира. Страна обладает очень крупным и самым современным морским торговым флотом, так как около 9/10 используемого сырья и топлива импортируется.

Количество баллов — 3. Великобритания. 0б

Задание 2

«Эта река катит свои воды через всю Сибирь; словно измерив всю необъятную ширь, делит глубоким руслом огромную страну на две равные части. Сказочно хороша река своим величавым течением, природой и живописными городами и селами, горделиво возвышающимися на крутых берегах. С левого берега у реки притоков мало и нет среди них значительных. Все крупные притоки подходят к реке справа. Это самая многоводная река России. Она выносит в океан воды больше, чем все реки Европейской части страны». (По А. Муранову)

О какой реке идет речь? Назовите известные вам притоки этой реки. Какие крупные города находятся на её берегах и берегах притоков? Какие сооружения и отрасли промышленности возникли на этой реке?

Полный ответ – 10 баллов (2 балла – за реку, по 0,5 балла за притоки, города, баллы за названные электростанции и отрасли промышленности).

р. Лена 0б

Задание 3 2б 2б

Исправьте географические ошибки

Остров Юкатан п-ов; Залив Ютландия страна; Карибское озеро море; 2б

Река Гекла город; Гора Меконг остров; Город Лабрадор пролив; Страна Тегеран город 2б

Количество баллов – 14 (2 балла за каждый правильный ответ)

Задание 4

Ни одно полезное ископаемое не будоражило так сильно умы людей, как это. Весть об открытии месторождений распространялась с молниеносной быстротой. Десятки тысяч людей бросали свою обычную жизнь и стекались к местам его добычи. Без всякого снаряжения, с одной киркой и лопатой эти люди днями и ночами трудились на разработке месторождений. Лишьнемногие из них разбогатели по-настоящему, остальные были полностью разорены, но на их место приходили все новые и новые, которых манила перспектива быстрого обогащения.

Как называется это полезное ископаемое? Как называется явление его массовой добычи? В каком веке это явление было особенно распространено? Какие особенности позволяли вести легкую добычу этого полезного ископаемого?

Количество баллов – 4 (1 балл за каждый правильный ответ)

Золото. Золотая лихорадка. 3б

XIX–XXвв. Реки выносили породу и золото можно было добывать лишь ещё.

11 класс Г1102

Тестовый раунд

Каждое задание оценивается в 1 балл.

Задание 12 – по 1 баллу за каждый правильный ответ (итого – 4 балла)

Задание 23 – по 1 баллу за каждый правильный ответ (итого – 3 балла)

1. Название высохших русел рек в пустыне Сахара?

а) вади;
б) крики;
в) узбой;
г) эрг.

2. Какое утверждение является верным?

а) наибольшая амплитуда температур в России зафиксирована в Краснодарском крае;
б) территория России расположена в двух климатических поясах;
в) на всей территории России в течение года преобладает пониженное атмосферное давление;
г) в Якутии самые низкие температуры в Северном полушарии.

3. Какая из стран располагается на разных материках?

а) Россия;
б) Казахстан;
в) Турция;
г) Египет.

4. Количество высотных поясов в Андах:

а) одинаково на всех широтах;
б) больше в умеренных широтах;
в) больше в тропических широтах;
г) больше в экваториальных широтах.

5. Самое соленое море, омывающее берега России?

а) Черное;
б) Японское;
в) Балтийское;
г) Азовское.

6. Месторождения каких полезных ископаемых есть и на Западно-Сибирской равнине, и на побережье Мексиканского залива?

а) нефти;
б) алмазов и золота;
в) каменного угля;
г) торфа.

7. Заболоченные поймы в дельтах рек, покрытые камышом:

а) фён;
б) бора;
в) плавни;
г) лакколиты.

8. Ильменский заповедник славится в первую очередь:

а) уникальным скоплением минералов;
б) уникальным рельефом;
в) редкой флорой;
г) редкой фауной.

9. Какое из утверждений является верным?

а) Верхоянский хребет образовался в кайнозойской складчатости;
б) горы Кавказ образовались в эпоху каледонской складчатости;
в) горы Алтай образовались в эпоху кайнозойской складчатости;
г) горы Урал образовались в эпоху герцинской складчатости.

10. В основании Западно-Сибирской равнины лежит:

а) щит;
б) область мезозойской складчатости;
в) область древней складчатости;
г) область мезозойской складчатости.

11. Второй по численности народ в России:

а) армяне;
б) башкиры;
в) чуваши;
г) татары.

12. Установите соответствие « порт – море»:

1- Находка 2- Мурманск 3- Калининград 4- Тикси

А- Балтийское Б-Японское В- Баренцево Г-Лаптевых.

13. Взаимосвязанные промышленные комплексы по производству электроэнергии, алюминия и деревообработке сложились в Восточно-Сибирском районе:

а) в Красноярске и Чите;
б) в Чите и Норильске;
в) в Норильске и Братске;
г) в Братске и Красноярске.

14. Самый молодой по дате основания город-миллионер России:

а) Пермь;
б) Воронеж;
в) Красноярск;
г) Новосибирск.

15. В Нечерноземье выращивают:

а) лен-долгунец;
б) сахарную свеклу;
в) подсолнечник;
г) сою.

16. Регион России, граничащий с тремя зарубежными странами:

а) Псковская область;
б) Брянская область;
в) Ростовская область;
г) Приморский край.

17. Специализацией какого наукограда России является ядерная физика:

а) Петергоф;
б) Дубна;
в) Королёв;
г) Мичуринск.

18. Страна табака, рома, сахарного тростника и никеля?

а) Коста-Рика;
б) Гватемала;
в) Ямайка;
г) Куба.

19. Какое из перечисленных государств по форме правления является монархией?

а) Испания
б) Португалия
в) Франция
г) Финляндия

20. Для какой из перечисленных стран характерен наибольший приток иммигрантов?

а) Иран
б) Монголия
в) Канада

Г1107

21.В каком из высказываний содержится информация о процессе урбанизации?

а) Численность и плотность населения увеличиваются в тех странах и регионах, где наиболее высок естественный прирост населения;

б) Половина населения мира живет в сельской местности, а общее количество сельских населенных пунктов составляет 15-20 млн;

в) В начале XX в. в мире насчитывалось 360 больших городов, к началу XXI в. число больших городов достигло 4 тыс;

г) В наименее развитых странах проживает более 600 млн. человек со среднедушевым ВВП 100 - 300 долл. в год.

1б

22. Какая из перечисленных стран находится в Азии?

а) Нигерия

б) Пакистан

в) Боливия

г) Судан

1б

23. Установите соответствие между страной и ее столицей.

1) Вьетнам — а) Стокгольм 1б

2) Швеция — б) Коломбо

3) ЮАР — в) Ханой 1б

г) Претория 1б

24.Выберете пару стран, относящихся к наиболее отсталым в мире:

а) Бангладеш и Афганистан;

б) Египет и Марокко;

в) Перу и Чили;

г) Исландия и Греция.

1б

25.Какая из перечисленных городских агломераций является наиболее крупной по численности населения?

а) Варшава

б) Нью-Йорк

в) Лондон

г) Рим

1б

26. Какие острова являются независимым государством?

а) Канарские;

б) Гавайские;

в) Фолклендские;

г) Багамские.

0

27. Какое государство является одновременно монархией и федерацией?

а) Австрия;

б) Бельгия;

в) Швеция;

г) Великобритания.

1б

28. Город Индии, называемый «Индийским Голливудом»:

а) Мумбаи;

б) Калькутта;

в) Нью-Дели;

г) Ченнаи.

0б

29. Новая Зеландия занимает ведущее место в мире по производству:

а) хлопка;

б) древесины;

в) молочных продуктов;

г) сахарного тростника.

0б

Тесты: 21б

Всего: 36б

30. В какой стране столица не является крупнейшим городом по численности населения:

а) Великобритания;

0б

Председатель: Ф. Решетов

Члены: Ф. Нарин, Н. Кадыров

в) Польша;

г) Перу.

МАКСИМАЛЬНО ВОЗМОЖНОЕ КОЛИЧЕСТВО БАЛЛОВ - 35.

Аналитический раунд

Задание 1

Эта страна-архипелаг по форме правления является конституционной монархией. Однородное по национальному составу население этой страны отличается большой численностью: она входит в первую десятку населения стран мира. Страна обладает очень крупным и самым современным морским торговым флотом, так как около 9/10 используемого сырья и топлива импортируется.

Количество баллов — 3. Япония 3б

Задание 2

«Эта река катит свои воды через всю Сибирь; словно измерив всю необъятную ширь, делит глубоким руслом огромную страну на две равные части. Сказочно хороша река своим величавым течением, природой и живописными городами и селами, горделиво возвышающимися на крутых берегах. С левого берега у реки притоков мало и нет среди них значительных. Все крупные притоки подходят к реке справа. Это самая многоводная река России. Она выносит в океан воды больше, чем все реки Европейской части страны». (По А. Муранову)

О какой реке идет речь? Назовите известные вам притоки этой реки. Какие крупные города находятся на её берегах и берегах притоков? Какие сооружения и отрасли промышленности возникли на этой реке?

Полный ответ – 10 баллов (2 балла – за реку, по 0,5 балла за притоки, города, баллы за названные электростанции и отрасли промышленности). Енисей, 2б

1б Красноярск, Красноярская ГЭС. 1б

Задание 3

Исправьте географические ошибки

Остров Юкатан _____; Залив Ютландия _____; Карибское озеро _____ море; 2б

Река Гекла _____; Гора Меконг _____; Город Лабрадор _____; Страна Тегеран город 2б

Количество баллов – 14 (2 балла за каждый правильный ответ)

Задание 4

Ни одно полезное ископаемое не будоражило так сильно умы людей, как это. Весть об открытии месторождений распространялась с молниеносной быстротой. Десятки тысяч людей бросали свою обычную жизнь и стекались к местам его добычи. Без всякого снаряжения, с одной киркой и лопатой эти люди днями и ночами трудились на разработке месторождений. Лишьнемногие из них разбогатели по-настоящему, остальные были полностью разорены, но на их место приходили все новые и новые, которых манила перспектива быстрого обогащения.

Как называется это полезное ископаемое? Как называется явление его массовой добычи? В каком веке это явление было особенно распространено? Какие особенности позволяли вести легкую добычу этого полезного ископаемого?

Количество баллов – 4 (1 балл за каждый правильный ответ)

Золото, золотая лихорадка. XV XIX век. 4б

Золото блестит, по этому при дроблении большого камня можно было найти кусочки

11 класс Г 1107

Тестовый раунд

Каждое задание оценивается в 1 балл.

Задание 12 – по 1 баллу за каждый правильный ответ (итого – 4 балла)

Задание 23 – по 1 баллу за каждый правильный ответ (итого – 3 балла)

1. Название высохших русел рек в пустыне Сахара?

а) вади;
б) крики;
в) узбой;
г) эрг.

0б

2. Какое утверждение является верным?

а) наибольшая амплитуда температур в России зафиксирована в Краснодарском крае;
б) территория России расположена в двух климатических поясах;
в) на всей территории России в течение года преобладает пониженное атмосферное давление;
г) в Якутии самые низкие температуры в Северном полушарии.

0

3. Какая из стран располагается на разных материках?

а) Россия;
б) Казахстан;
в) Турция;
г) Египет.

0б

4. Количество высотных поясов в Андах:

а) одинаково на всех широтах;
б) больше в умеренных широтах;
в) больше в тропических широтах;
г) больше в экваториальных широтах.

1б

5. Самое соленое море, омывающее берега России?

а) Черное;
б) Японское;
в) Балтийское;
г) Азовское.

0

6. Месторождения каких полезных ископаемых есть и на Западно-Сибирской равнине, и на побережье Мексиканского залива?

а) нефти;
б) алмазов и золота;
в) каменного угля;
г) торфа.

0

7. Заболоченные поймы в дельтах рек, покрытые камышом:

а) фён;
б) бора;
в) плавни;
г) лакколиты.

0

8. Ильменский заповедник славится в первую очередь:

а) уникальным скоплением минералов;
б) уникальным рельефом;
в) редкой флорой;
г) редкой фауной.

1б

9. Какое из утверждений является верным?

а) Верхоянский хребет образовался в кайнозойской складчатости;
б) горы Кавказ образовались в эпоху каледонской складчатости;
в) горы Алтай образовались в эпоху кайнозойской складчатости;
г) горы Урал образовались в эпоху герцинской складчатости.

0

10. В основании Западно-Сибирской равнины лежит:

а) щит;
б) область древней складчатости;
в) область мезозойской складчатости.
г) область мезозойской складчатости.

1б

11. Второй по численности народ в России:

а) армяне;
б) башкиры;
в) чуваши;
г) татары.

0

1б 1б

12. Установите соответствие « порт – море»:

1- Находка 2- Мурманск 3- Калининград 4- Тикси

А- Балтийское Б-Японское В- Баренцево Г-Лаптевых.

А-3 В-2 Б-1 1б Г-4 1б

13. Взаимосвязанные промышленные комплексы по производству электроэнергии, алюминия и деревообработке сложились в Восточно-Сибирском районе:

а) в Красноярске и Чите;
б) в Чите и Норильске;
в) в Норильске и Братске;
г) в Братске и Красноярске.

0

14. Самый молодой по дате основания город-миллионер России:

а) Пермь;
б) Воронеж;
в) Красноярск;
г) Новосибирск.

1б

15. В Нечерноземье выращивают:

а) лен-долгунец;
б) сахарную свеклу;
в) подсолнечник;
г) сою.

1б

16. Регион России, граничащий с тремя зарубежными странами:

а) Псковская область;
б) Брянская область;
в) Ростовская область;
г) Приморский край.

0

17. Специализацией какого наукограда России является ядерная физика:

а) Петергоф;
б) Дубна;
в) Королёв;
г) Мичуринск.

1б

18. Страна табака, рома, сахарного тростника и никеля?

а) Коста-Рика;
б) Гватемала;
в) Ямайка;
г) Куба.

1б

19. Какое из перечисленных государств по форме правления является монархией?

а) Испания
б) Португалия
в) Франция
г) Финляндия

1б

20. Для какой из перечисленных стран характерен наибольший приток иммигрантов?

а) Иран
б) Монголия
в) Канада

1б

Г1103

21.В каком из высказываний содержится информация о процессе урбанизации?

а) Численность и плотность населения увеличиваются в тех странах и регионах, где наиболее высок естественный прирост населения;
б) Половина населения мира живет в сельской местности, а общее количество сельских населенных пунктов составляет 15-20 млн; 0
в) В начале XX в. в мире насчитывалось 360 больших городов, к началу XXI в. число больших городов достигло 4 тыс;
г) В наименее развитых странах проживает более 600 млн. человек со среднедушевым ВВП 100 - 300 долл. в год.

22. Какая из перечисленных стран находится в Азии?

а) Нигерия
б) Пакистан 1б
в) Боливия
г) Судан

23. Установите соответствие между страной и ее столицей.

1) Вьетнам — а) Стокгольм 1б
2) Швеция — б) Коломбо 1б
3) ЮАР — в) Ханой 1б
г) Претория 1б

24.Выберете пару стран, относящихся к наиболее отсталым в мире:

а) Бангладеш и Афганистан;
б) Египет и Марокко; 0
в) Перу и Чили;
г) Исландия и Греция.

25.Какая из перечисленных городских агломераций является наиболее крупной по численности населения?

а) Варшава
б) Нью-Йорк 1б
в) Лондон
г) Рим

26. Какие острова являются независимым государством?

а) Канарские;
б) Гавайские; 0
в) Фолклендские;
г) Багамские.

27. Какое государство является одновременно монархией и федерацией?

а) Австрия;
б) Бельгия; 1б
в) Швеция;
г) Великобритания.

28. Город Индии, называемый «Индийским Голливудом»:

а) Мумбаи;
б) Калькутта; 0
в) Нью-Дели;
г) Ченнаи.

29. Новая Зеландия занимает ведущее место в мире по производству:

а) хлопка; 0
б) древесины;
в) молочных продуктов;
г) сахарного тростника.

30. В какой стране столица не является крупнейшим городом по численности населения:

а) Великобритания; 0
в) Польша;
г) Перу.

Всего: 22б

МАКСИМАЛЬНО ВОЗМОЖНОЕ КОЛИЧЕСТВО БАЛЛОВ - 35.

Аналитический раунд

Задание 1

Эта страна-архипелаг по форме правления является конституционной монархией. Однородное по национальному составу население этой страны отличается большой численностью: она входит в первую десятку населения стран мира. Страна обладает очень крупным и самым современным морским торговым флотом, так как около 9/10 используемого сырья и топлива импортируется.

Количество баллов — 3. Япония. 3б

Задание 2

«Эта река катит свои воды через всю Сибирь; словно измерив всю необъятную ширь, делит глубоким руслом огромную страну на две равные части. Сказочно хороша река своим величавым течением, природой и живописными городами и селами, горделиво возвышающимися на крутых берегах. С левого берега у реки притоков мало и нет среди них значительных. Все крупные притоки подходят к реке справа. Это самая многоводная река России. Она выносит в океан воды больше, чем все реки Европейской части страны». (По А. Муранову)

О какой реке идет речь? Назовите известные вам притоки этой реки. Какие крупные города находятся на её берегах и берегах притоков? Какие сооружения и отрасли промышленности возникли на этой реке? Обь

Полный ответ – 10 баллов (2 балла – за реку, по 0,5 балла за притоки, города, баллы за названные электростанции и отрасли промышленности). 0б

Задание 3 2б

Исправьте географические ошибки

Остров Юкатан п-ов; Залив Ютландия _____; Карибское озеро море; 2б

Река Гекла _____; Гора Меконг _____; Город Лабрадор _____; Страна Тегеран город 2б

Количество баллов – 14 (2 балла за каждый правильный ответ)

Задание 4

Ни одно полезное ископаемое не будоражило так сильно умы людей, как это. Весть об открытии месторождений распространялась с молниеносной быстротой. Десятки тысяч людей бросали свою обычную жизнь и стекались к местам его добычи. Без всякого снаряжения, с одной киркой и лопатой эти люди днями и ночами трудились на разработке месторождений. Лишьнемногие из них разбогатели по-настоящему, остальные были полностью разорены, но на их место приходили все новые и новые, которых манила перспектива быстрого обогащения.

Как называется это полезное ископаемое? Как называется явление его массовой добычи? В каком веке это явление было особенно распространено? Какие особенности позволяли вести легкую добычу этого полезного ископаемого?

Количество баллов – 4 (1 балл за каждый правильный ответ) 3б

а) Золото.
б) Золотая лихорадка.
в) В XIX веке.
г)

Всего: 34б

Председатель Жаров А.А. Великанова Е.А. Назарова О.Н.

Члены жюри

11 класс Г1103

Тестовый раунд

Каждое задание оценивается в 1 балл.

Задание 12 – по 1 баллу за каждый правильный ответ (итого – 4 балла)

Задание 23 – по 1 баллу за каждый правильный ответ (итого – 3 балла)

1. Название высохших русел рек в пустыне Сахара?

а) вади;
б) крики;
в) узбой;
г) эрг.

1б

2. Какое утверждение является верным?

а) наибольшая амплитуда температур в России зафиксирована в Краснодарском крае;
б) территория России расположена в двух климатических поясах;
в) на всей территории России в течение года преобладает пониженное атмосферное давление;
г) в Якутии самые низкие температуры в Северном полушарии.

1б

3. Какая из стран располагается на разных материках?

а) Россия;
б) Казахстан;
в) Турция;
г) Египет.

0б

4. Количество высотных поясов в Андах:

а) одинаково на всех широтах;
б) больше в умеренных широтах;
в) больше в тропических широтах;
г) больше в экваториальных широтах.

1б

5. Самое соленое море, омывающее берега России?

а) Черное;
б) Японское;
в) Балтийское;
г) Азовское.

1б

6. Месторождения каких полезных ископаемых есть и на Западно-Сибирской равнине, и на побережье Мексиканского залива?

а) нефти;
б) алмазов и золота;
в) каменного угля;
г) торфа.

1б

7. Заболоченные поймы в дельтах рек, покрытые камышом:

а) фён;
б) бора;
в) плавни;
г) лакколиты.

0б

8. Ильменский заповедник славится в первую очередь:

а) уникальным скоплением минералов;
б) уникальным рельефом;
в) редкой флорой;
г) редкой фауной.

1б

9. Какое из утверждений является верным?

а) Верхоянский хребет образовался в кайнозойской складчатости;
б) горы Кавказ образовались в эпоху каледонской складчатости;
в) горы Алтай образовались в эпоху кайнозойской складчатости;
г) горы Урал образовались в эпоху герцинской складчатости.

0

10. В основании Западно-Сибирской равнины лежит:

а) щит;
в) область древней складчатости;
г) область мезозойской складчатости.

1б

11. Второй по численности народ в России:

а) армяне;
б) башкиры;
в) чуваши;
г) татары.

1б

12. Установите соответствие « порт – море»:

1- Находка 2- Мурманск 3- Калининград 4- Тикси

А- Балтийское Б-Японское В- Баренцево Г-Лаптевых.

А-3 ; Б-1; В-2; Г-4.
1б 1б 1б 1б

13. Взаимосвязанные промышленные комплексы по производству электроэнергии, алюминия и деревообработке сложились в Восточно-Сибирском районе:

а) в Красноярске и Чите;
б) в Чите и Норильске;
в) в Норильске и Братске;
г) в Братске и Красноярске.

0

14. Самый молодой по дате основания город-миллионер России:

а) Пермь;
б) Воронеж;
в) Красноярск;
г) Новосибирск.

1б

15. В Нечерноземье выращивают:

а) лен-долгунец;
б) сахарную свеклу;
в) подсолнечник;
г) сою.

0

16. Регион России, граничащий с тремя зарубежными странами:

а) Псковская область;
б) Брянская область;
в) Ростовская область;
г) Приморский край.

1б

17. Специализацией какого наукограда России является ядерная физика:

а) Петергоф;
б) Дубна;
в) Королёв;
г) Мичуринск.

0

18. Страна табака, рома, сахарного тростника и никеля?

а) Коста-Рика;
б) Гватемала;
в) Ямайка;
г) Куба.

1

19. Какое из перечисленных государств по форме правления является монархией?

а) Испания
б) Португалия
в) Франция
г) Финляндия

1

20. Для какой из перечисленных стран характерен наибольший приток иммигрантов?

а) Иран
б) Монголия
в) Канада

0

11 класс Г 1102

21.В каком из высказываний содержится информация о процессе урбанизации?

а) Численность и плотность населения увеличиваются в тех странах и регионах, где наиболее высок естественный прирост населения;

б) Половина населения мира живет в сельской местности, а общее количество сельских населенных пунктов составляет 15-20 млн;

в) В начале XX в. в мире насчитывалось 360 больших городов, к началу XXI в. число больших городов достигло 4 тыс; 1б

г) В наименее развитых странах проживает более 600 млн. человек со среднедушевым ВВП 100 - 300 долл. в год.

22. Какая из перечисленных стран находится в Азии?

а) Нигерия

б) Пакистан 1б

в) Боливия

г) Судан

23. Установите соответствие между страной и ее столицей.

1) Вьетнам	а) Стокгольм
2) Швеция	б) Коломбо
3) ЮАР	в) Ханой
	г) Претория

1б 1б 0б 5б
1 2 3
в а б

24.Выберете пару стран, относящихся к наиболее отсталым в мире:

а) Бангладеш и Афганистан;

б) Египет и Марокко; 1б

в) Перу и Чили;

г) Исландия и Греция.

25.Какая из перечисленных городских агломераций является наиболее крупной по численности населения?

а) Варшава

б) Нью-Йорк 1б

в) Лондон

г) Рим

26. Какие острова являются независимым государством?

а) Канарские;

б) Гавайские;

в) Фолклендские; 1б

г) Багамские.

27. Какое государство является одновременно монархией и федерацией?

а) Австрия;

б) Бельгия; 0

в) Швеция;

г) Великобритания.

28. Город Индии, называемый «Индийским Голливудом»:

а) Мумбаи;

б) Калькутта;

в) Нью-Дели; 1б

г) Ченнаи.

29. Новая Зеландия занимает ведущее место в мире по производству: Всего: 28б

а) хлопка;

б) древесины; 0

в) молочных продуктов;

г) сахарного тростника.

30. В какой стране столица не является крупнейшим городом по численности населения:

а) Великобритания;

Предложением 1б Чисто ничего Фр Решительно все! Марина Кудрова О.И. 2б

в) Польша;

г) Перу.

МАКСИМАЛЬНО ВОЗМОЖНОЕ КОЛИЧЕСТВО БАЛЛОВ - 35.

Аналитический раунд

Задание 1

Эта страна-архипелаг по форме правления является конституционной монархией. Однородное по национальному составу население этой страны отличается большой численностью: она входит в первую десятку населения стран мира. Страна обладает очень крупным и самым современным морским торговым флотом, так как около 9/10 используемого сырья и топлива импортируется.

Количество баллов — 3. Япония 3б

Задание 2

«Эта река катит свои воды через всю Сибирь; словно измерив всю необъятную ширь, делит глубоким руслом огромную страну на две равные части. Сказочно хороша река своим величавым течением, природой и живописными городами и селами, горделиво возвышающимися на крутых берегах. С левого берега у реки притоков мало и нет среди них значительных. Все крупные притоки подходят к реке справа. Это самая многоводная река России. Она выносит в океан воды больше, чем все реки Европейской части страны». (По А. Муранову)

О какой реке идет речь? Назовите известные вам притоки этой реки. Какие крупные города находятся на её берегах и берегах притоков? Какие сооружения и отрасли промышленности возникли на этой реке? реки [illegible] Ахтуба Дон

Полный ответ – 10 баллов (2 балла – за реку, по 0,5 балла за притоки, города, баллы за названные электростанции и отрасли промышленности). реки Волга 0

Задание 3 2б

Исправьте географические ошибки 2б

Остров Юкатан полуостров; Залив Ютландия _____; Карибское озеро море;

Река Гекла _____; Гора Меконг _____; Город Лабрадор _____; Страна Тегеран город 2б

Количество баллов – 14 (2 балла за каждый правильный ответ)

Задание 4

Ни одно полезное ископаемое не будоражило так сильно умы людей, как это. Весть об открытии месторождений распространялась с молниеносной быстротой. Десятки тысяч людей бросали свою обычную жизнь и стекались к местам его добычи. Без всякого снаряжения, с одной киркой и лопатой эти люди днями и ночами трудились на разработке месторождений. Лишьнемногие из них разбогатели по-настоящему, остальные были полностью разорены, но на их место приходили все новые и новые, которых манила перспектива быстрого обогащения.

Как называется это полезное ископаемое? Как называется явление его массовой добычи? В каком веке это явление было особенно распространено? Какие особенности позволяли вести легкую добычу этого полезного ископаемого?

Количество баллов – 4 (1 балл за каждый правильный ответ)

золото; оно находилось неглубоко под землей его было просто достать.